Kordamine

1. Kirjuta kujundi nimetus.

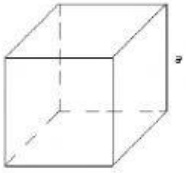

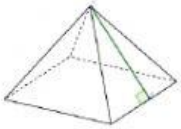

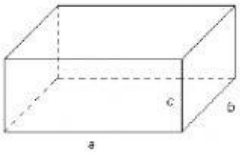

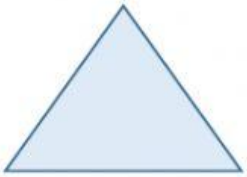

2. **Kastis oli 7 valget klotsi ja 9 sinist klotsi. Mitu klotsi oli kokku?**

			=	

Vastus: .....

3. **Kirjuta puuduv liidetav, vähendaja, vähendatav, summa või vahe.**

9 + ... = 11	16 - ..... = 8	..... – 8 = 9
..... + 5 = 12	..... – 7 = 6	14 – 9 = ...
4 + 8 = ...	..... + 7 = 13	..... – 4 = 8

4. Kirjuta kaks arvu, mille summa on 17. ..... ja .....

5. Kirjuta kaks arvu, mille vahe on on 4. ..... ja .....

6. Kirjuta kaks arvu, mille summa on 11. ..... ja .....

7. Kirjuta kaks arvu, mille vahe on 6. ..... ja .....

8. Kirjuta kaks arvu, mille summa on 16. ..... ja .....