Ficha de Matemáticas Classroom 02-10-2020

1) ¿Cuántas decenas hay? Rodea para formar grupos de 10 piezas y completa:

→ 24 = ___D + ___U

→ ___ = ___D + ___U

2) Resuelve las siguientes operaciones en tu cuaderno utilizando la casita y completa:

65 + 36 =
23 + 88 =
54 – 21 =
84 – 63 =

3) Une según corresponda.

Tiene un 6 en la unidades	298
Todas sus cifras son iguales	231
Tiene un 3 en las decenas	256
Es menor que 299 y mayor que 257	222

4) Completa la tabla como en el ejemplo.

40 D	10 D	60 D		70 D	
4 C			9 C		2 C

5) Completa las siguientes series lógicas:







¡¡Buen trabajo superhéroes!!