EVALUACIÓN DE ESTUDIOS SOCIALES
IQ

Nombre: **Fecha:**

1. **Escoge V (verdadero) o F (falso).**

   - El Sol es la estrella principal del Sistema Solar.
   - Nuestro Sistema Solar pertenece a la Vía Láctea.
   - La Tierra posee varios satélites naturales.
   - El planeta más cercano al Sol es Júpiter.
   - El Sistema Solar está formado por 8 planetas.

2. **Observa el territorio resaltado en cada gráfico y selecciona el lugar al que corresponde.**

3. **Observa el mapamundi y escribe el nombre de los hemisferios según la línea ecuador y el meridiano de Greenwich.**

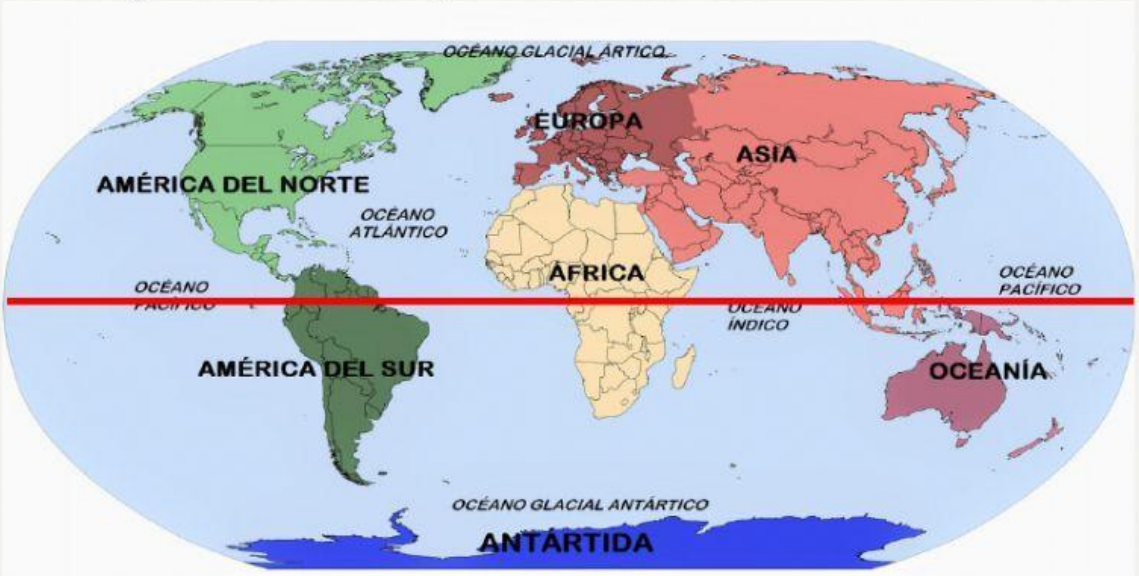

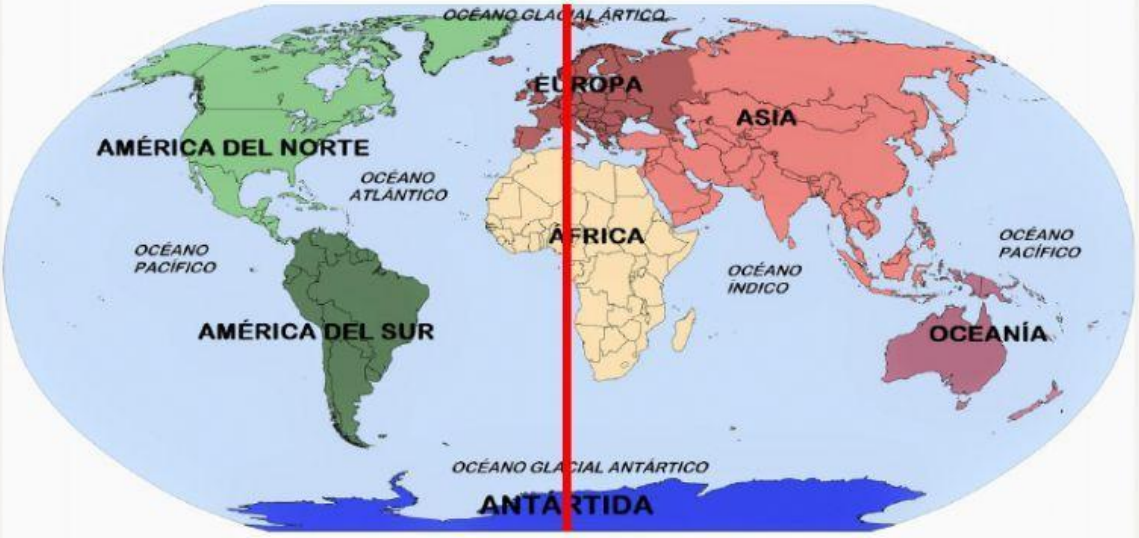

4. **Completa con la respuesta correcta.**

- Cordillera más importante de América del Sur
- Un país de América del Sur sin salida al mar
- País donde vivo
- País de América del Sur donde se habla portugués

5. Ubica el nombre de cada continente en el lugar que corresponde.

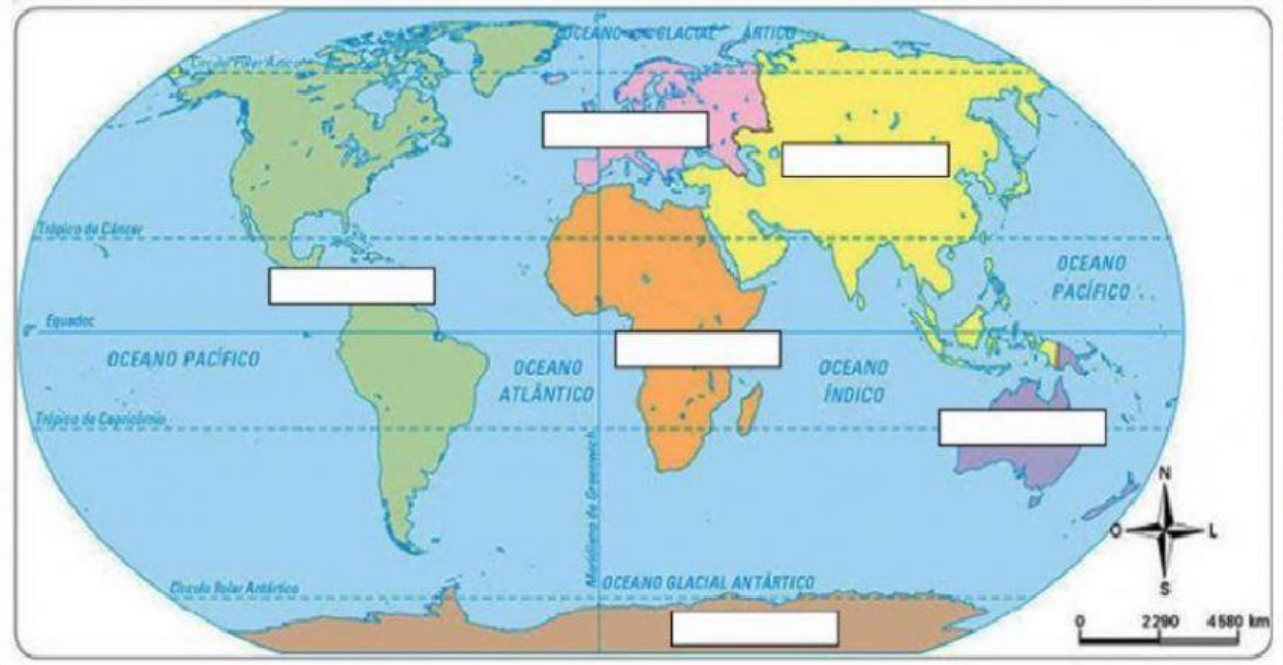

ASIA	OCEANÍA	ÁFRICA	AMÉRICA	ANTÁRTIDA	EUROPA

6. Ubica las zonas climáticas del planeta según corresponda.

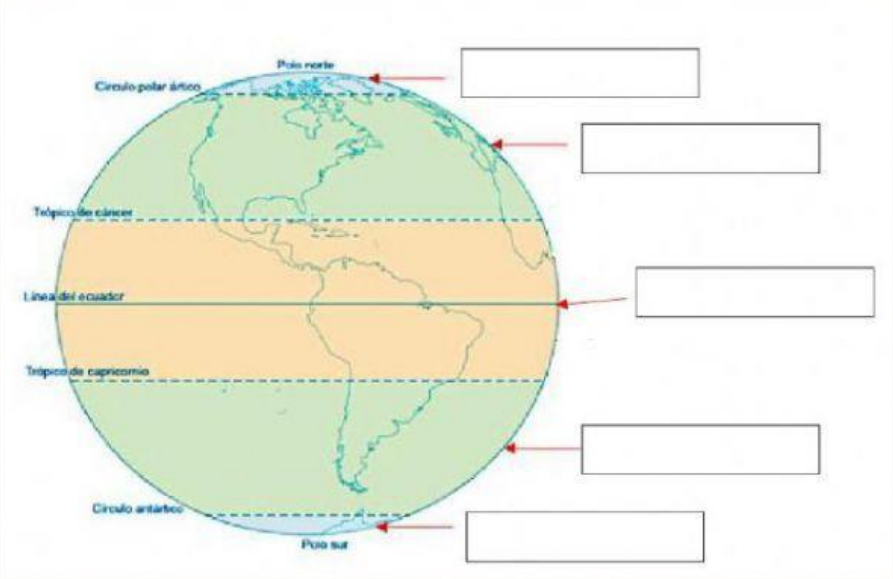

ZONA CÁLIDA

ZONA FRÍA DEL NORTE

ZONA TEMPLADA DEL NORTE

ZONA FRÍA DEL SUR

ZONA TEMPLADA DEL SUR