Assista ao vídeo

Agora faça a atividade

No sistema de numeração decimal, cada grupo de 10 unidades forma 1 dezena, cada grupo de 10 dezenas forma 1 centena e cada grupo de 10 centenas forma 1 unidade de milhar. Observe o exemplo e, depois, continue escrevendo a quantidade representada.

UM	C	D	E
1	1	1	1

a.



UM	C	D	E

b.

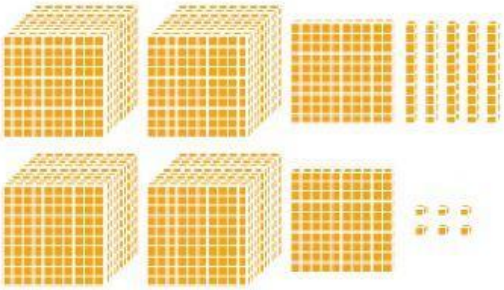

UM	C	D	E

c.



UM	C	D	E

d.



UM	C	D	E