**Unidad: Verde que te quiero verde**
**Guía interactiva Relacionando figuras 2d y 3d**

Instrucción: Selecciona la alternativa correcta.

1. ¿Qué figuras 3d se utilizaron para realizar esta torre?

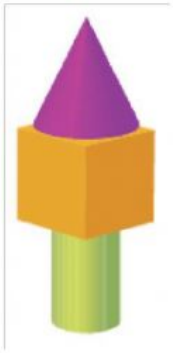

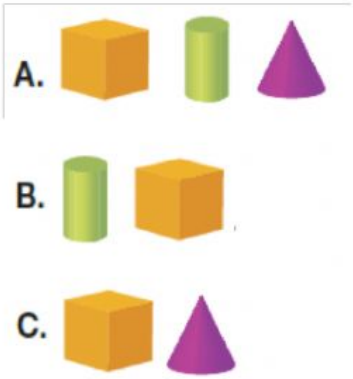

2. ¿Con cuáles figuras 2d se formó esta flor?



A.

B. 

C.

3. Une las figuras que se relacionan.