CEIP DR. BORRAS-ALFARRASÍ. CURS QUART
Unitat didàctica 2-Tema 12- COSSOS GEOMÈRTRICS.

Fitxa interactiva 2-Els poliedres: Prismes i Piràmides.

Per a fer esta activitat pots mirar el Genially:

https://view.genial.ly/5f6ec7c59bbeb80d1f93fb7b/presentation-mate-4t-ud2-cossos-geompetrics

Trobaràs tota l'explicació del tema que hem utilitzat a classe. El tindràs també al teu correu i també al blog :

https://elracodelacienciadejordiespi.wordpress.com/

Activitat 1- Interactiva. S'envia per correu electrònic.

1-A continuació veuràs imatges de poliedres. Com tu ja saps els poliedres poden ser prismes o piràmides.
Per a cada imatge hauràs de completar:
a)Si és prima o piràmide.
b)Quantes bases té, i la forma de polígon que té (triangle, pentàgon, quadrat, etc.)
c)Número de Vèrtex.
d)Número de cares que té i la forma de polígon que tenen.(triangle, rectangle, quadrat, etc.)
e)Número d'arestes que té.

Has de respondre tot en lletres (no números), començar en majúscula i posar els accents, si hi ha.

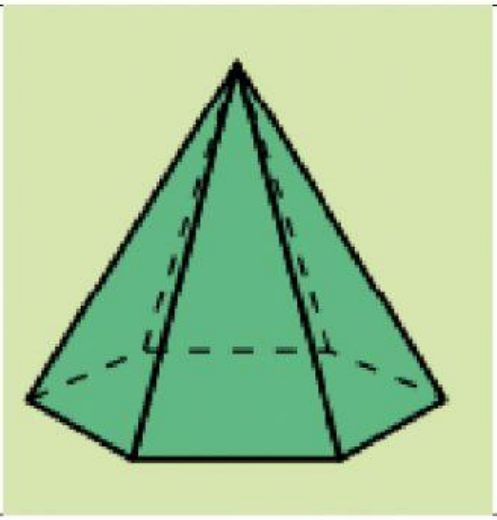

a)És un/una:	
b)Número de bases.	
Polígon de les bases.	
c)Número de vèrtex	
d)Número de cares.	
Polígon de les cares	
e)Número d'arestes	

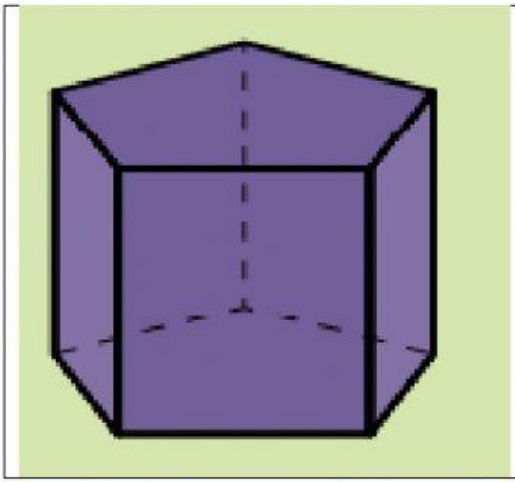	a)És un/una:	
	b)Número de bases.	
	Polígon de les bases.	
	c)Número de vèrtex	
	d)Número de cares.	
	Polígon de les cares	
	e)Número d'arestes	

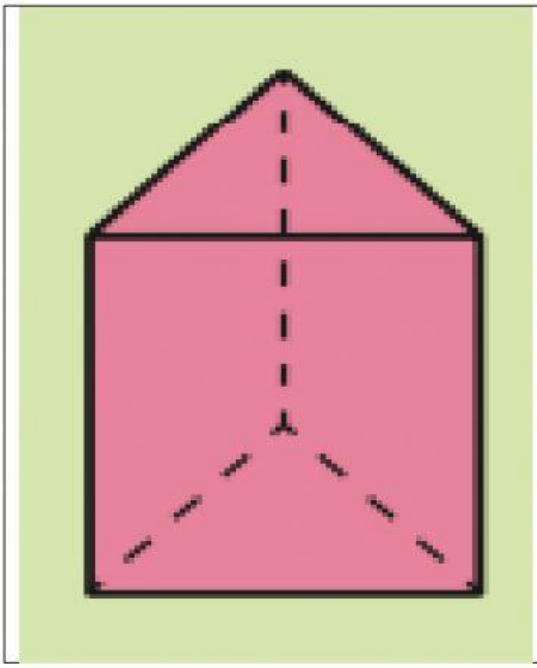	a)És un/una:	
	b)Número de bases.	
	Polígon de les bases.	
	c)Número de vèrtex	
	d)Número de cares.	
	Polígon de les cares	
	e)Número d'arestes	

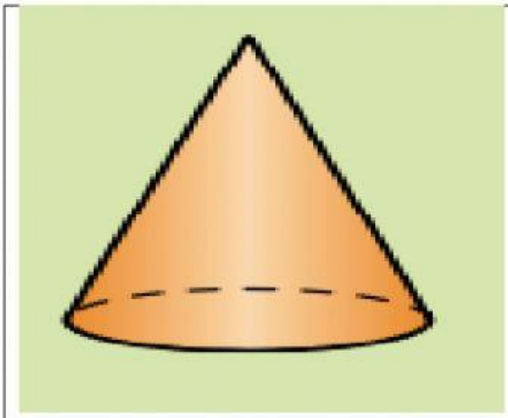	a)És un/una:	
	b)Número de bases.	
	Polígon de les bases.	
	c)Número de vèrtex	
	d)Número de cares.	
	Polígon de les cares	
	e)Número d'arestes	

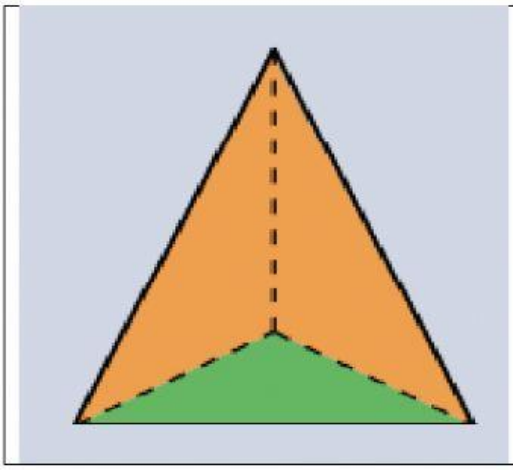	a)És un/una:	
	b)Número de bases.	
	Polígon de les bases.	
	c)Número de vèrtex	
	d)Número de cares.	
	Polígon de les cares	
	e)Número d'arestes	

Activitat 2- Interactiva. S'envia per correu electrònic.

Observa atentament la següent imatge. Imagina els elements que no es veuen i contesta a les preguntes.

Has de respondre tot en lletres (no números), començar en majúscula i posar els accents, si hi ha.

Imatge	Pregunta	Resposta (Tot en lletra)
	És un prisma o una piràmide?	
	Com s'anomena?	
	Quantes cares té?	
	Són totes les cares iguals?	
	Quin tipus de polígon són les cares?	
	Quants vèrtex té?	
	Quantes arestes té?	
	Mesuren totes igual?	

Activitats a la llibreta:

a)POSAR TÍTOL DEL TEMA.... (12)
b)DESPRÉS POSAR TÍTOL DE L'APARTAT (P.200)

c)De la pàgina 201, has de fer les activitats 3 i 4.
Es copia tot menys les imatges.