5. Multiplica y divide.

78 x 10 =	900 + 10 =	849 x 100 =	847 x 1000 =
700 : 10 =	300 : 100 =	940 : 10 =	2020 : 10 =

6. Relaciona cada fracción con su representación

- 2/3
- 5/8
- 1/2
- 8/12



7. Arrastra la respuesta correcta a su lugar.

3/8 + 4/8 =

7/9 - 2/9 =

8/7	5/9	7/8	9/5

8. Clasifica los ángulos de esas figuras. Pon las respuestas en orden alfabético.

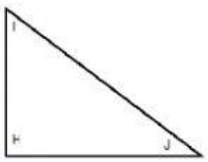

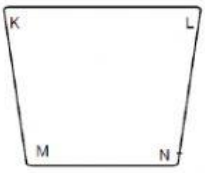

ÁNGULOS RECTOS	ÁNGULOS AGUDOS	ÁNGULOS OBTUSOS