NOME: DATA:

PROFESSORA:

No diagrama abaixo, a localização de cada objeto é identificada por uma letra e um número. Por exemplo, a casa está localizada em B,2.

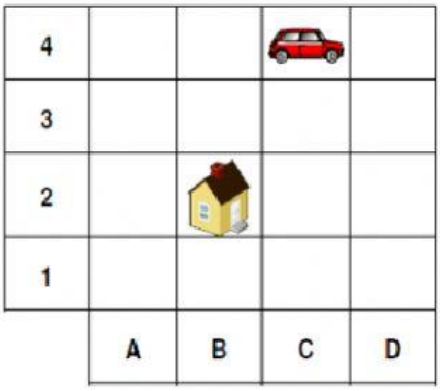


De acordo com a figura, o carro está localizado em

(A) C, 4
(B) C, 1
(C) B, 4
(D) A, 4

**ARRASTE AS CASINHAS ABAIXO PARA O DIAGRAMA, SEGUINDO A LOCALIZAÇÃO DESCRITA AO LADO DE CADA UMA.**

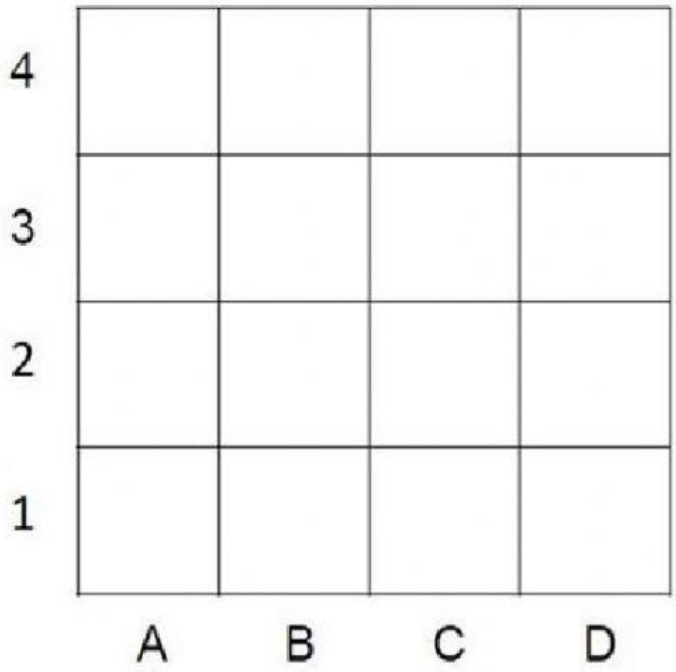




Casa do Miguel (3,B)

Casa da Ana (1,D)

Casa do João (1,A)

Casa do António (4,D)

Casa da Joana (2,C)

Casa do José (4,B)