PECAHAN SEDERHANA

Perhatikan video berikut ini !

1. Satu buah apel dibagi menjadi 3 bagian. Maka setiap bagian bernilai ….

   a. 3/3

   b. 3/1

   c. 2/3

   d. 1/3



2. Tariklah garis antara pecahan dengan gambar yang sesuai !

		$\frac{1}{4}$
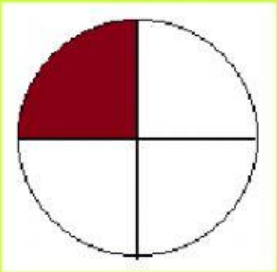		$\frac{3}{4}$
		$\frac{1}{8}$
		$\frac{2}{5}$

3. Pak Rino baru saja membelah semangka miliknya menjadi 10 bagian. Ada dua bagian yang dimakan oleh anak pak Rino. Sisa semangka pak Rino tinggal ….

a. 2/10

b. 3/10

c. 1/10

d. 8/10

4. Letakkanlah pada gambar pecahan yang sesuai!

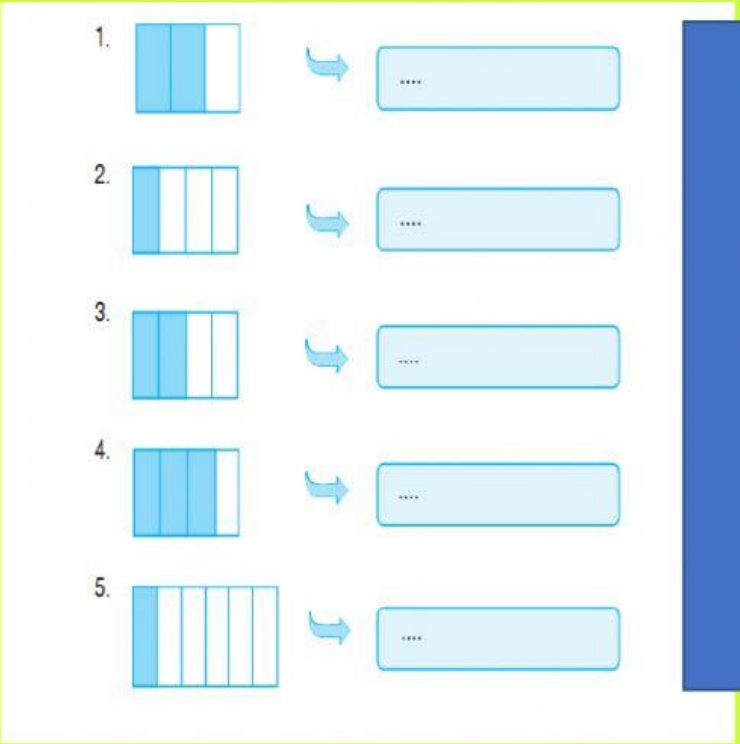

Dua per empat

Dua per tiga

Satu per enam

Satu per empat

Tiga per empat

Sukma, Dikma, Dida, dan Lora sedang berkaryawisata bersama.

Setiap anak mendapat 1 kue besar untuk bekal dalam perjalanan.

Ketika sampai di tempat tujuan, mereka melihat sisa kue masing - masing.

kue Sukma tingal $\frac{1}{2}$ bagian.

Kue Dida tingal $\frac{1}{4}$ bagian.

Kue Dikma tinggal $\frac{1}{3}$ bagian



Kue Lora tinggal $\frac{1}{6}$ bagian

Kue siapakah yang tersisa paling besar ?

a. Sukma

b. Dida

c. Dikma

d. Lora