UNIDAD EDUCATIVA GIOVANNI BATTISTA MONTINI "PAULO VI"

CIENCIAS NATURALES

1.- Observa la imagen y arrastra los nombres donde corresponde.

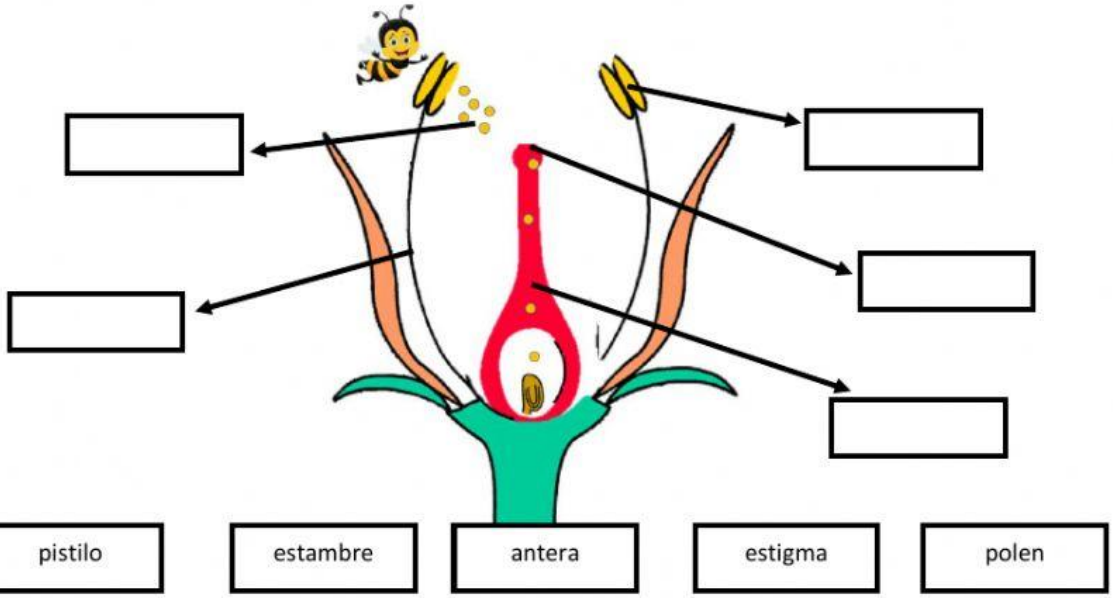

2.- Escoge la respuesta correcta.

a.- A la caída del polen desde la antera hacia el pistilo se conoce con el nombre de:

crecimiento polinización reproducción

b.- El órgano masculino de la flor es:

estambre pistilo pétalos

3.- Contesta Verdadero o Falso.

a) Las flores se componen de una parte masculina llamada estambre y parte femenina llamada pistilo.

b) Las anteras contienen el polen.

c) Se conoce como pétalos a la parte que sostiene la plata.

4.- Une con una línea según corresponde:





P. artificial **P. cruzada** **P. directa**

5.- Escribe el nombre de 3 agentes polinizadores.