الاسم: _____ وظيفة صف في الهندسة

للصف السابع

1) المستقيمات التي في الرسم تتقاطع في النقطة B

احسب قيم الزوايا α و β و $< ABC$:-

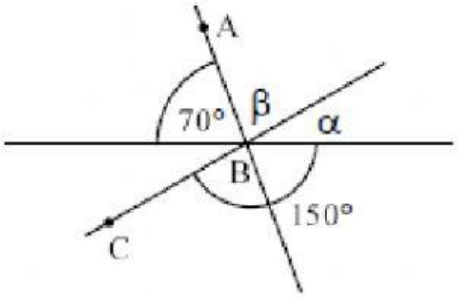

$< ABC =$ _____ β = _____ α = _____

---

2) معطى: $< ACB =< BCD$

أ- احسب قيمة x.

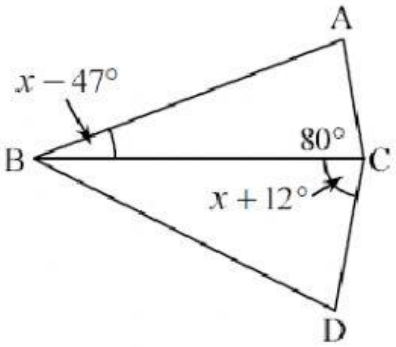

ب- احسب مقادير زوايا المثلث ΔABC

3) احسب قيمة α في كل بند:-

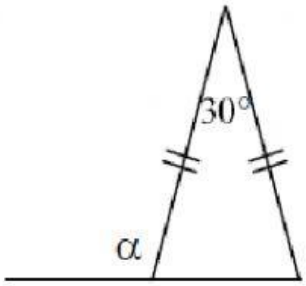

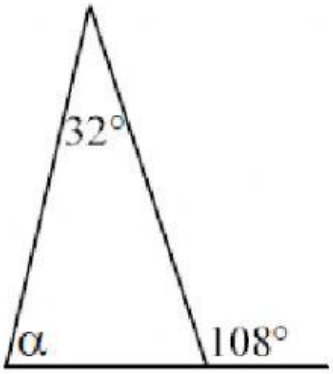

---

4) معطى: BE و DC هما مستقيمان

احسب مقدار $< AMD$

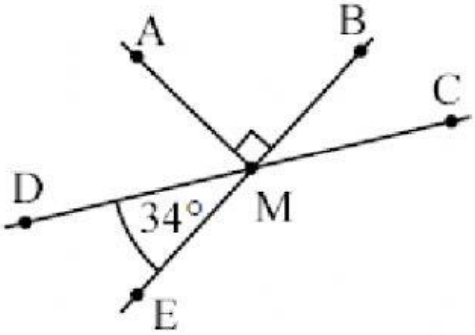

---
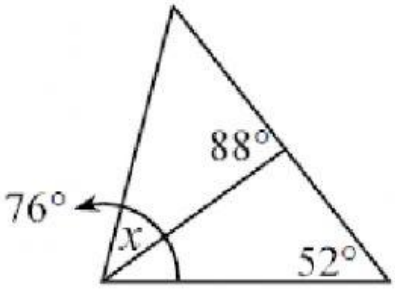
5) احسب قيمة x :-