# REPASAMOS CARACTERÍSTICAS DE LOS SERES VIVOS

1) ¿Qué característica de los seres vivos se encuentra representada en el esquema de la derecha?
   El _____ _____

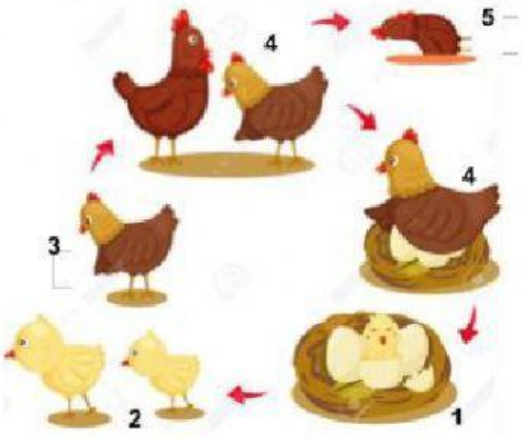


2) Arrastra hacia cada número la etapa que se muestra en el esquema de la derecha.

CRECIMIENTO DESARROLLO NACIMIENTO MUERTE REPRODUCCIÓN

1 _____ 2 _____ 3 _____
4 _____ 5 _____

2) ATENCIÓN: PARA QUE TE CORRIJA EN FORMA CORRECTA, ESCRIBE TUS RESPUESTAS EN ORDEN ALFABÉTICO Y SIN OLVIDAR LOS TILDES.

a. Nombra las <u>3 funciones vitales</u> de los seres vivos

_____ _____ _____

b. Nombra en cada imagen de abajo 2 funciones vitales que se estén mostrando **( argumentamos oralmente).**

1

2

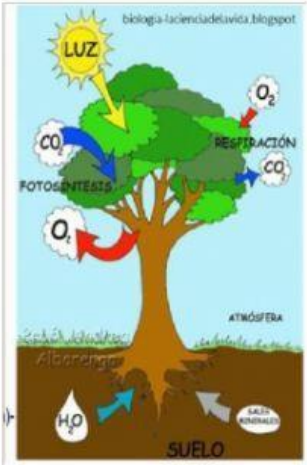


3

3) Pensando en la BIODERVISAD de seres vivos que hemos estudiado y teniéndolos a todos en cuenta contesta:

- ¿Cuáles de las siguientes frases son características de TODOS LOS SERES VIVOS? Selecciona las correctas

a. Tienen células __
b. Se mueven de un lugar a otro __
c. Tienen corazón __
d. Se reproducen __
e. Se relacionan con el ambiente __
f. Respiran __
g. Se alimentan __
h. Tienen ojos __

4) Arrastra la imagen del ser vivo al grupo que pertenece y menciona una característica que los distinga de los demás grupos.



Se caracteriza por…
_____
_____
_____

**ANIMALES**

**PLANTAS**

Se caracteriza por…
_____
_____
_____

Se caracteriza por…
_____
_____
_____

**MICROORGANISMOS**

**HONGOS**

Se caracteriza por…
_____
_____
_____