LOS TRIÁNGULOS

Los triángulos pueden clasificarse según la amplitud de sus ángulos en:

https://www.youtube.com/watch?v=c9cTIjBqFTw&feature=emb_rel_end

1 .Elige el nombre de los triángulos:

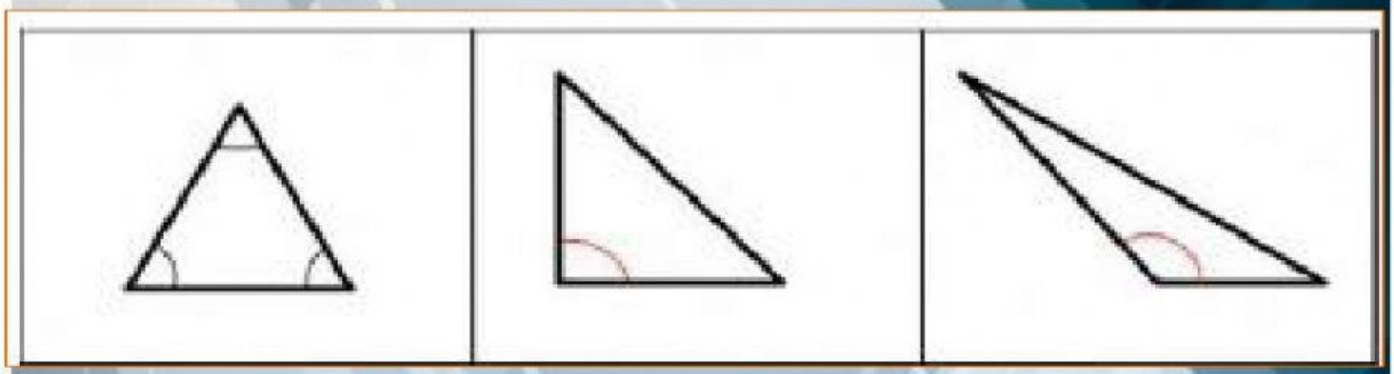

Triángulo _____ Triángulo _____ Triángulo _____

3 ángulos agudos 1 ángulo recto 1 ángulo obtuso

2. Une

Equilátero	Dos lados iguales
Acutángulo	Tres lados desiguales
Escaleno	Tres ángulos agudos
Rectángulo	Tres lados iguales
Isósceles	Un ángulo obtuso
Obtusángulo	Un ángulo recto

3. Clasifica estos triángulos:

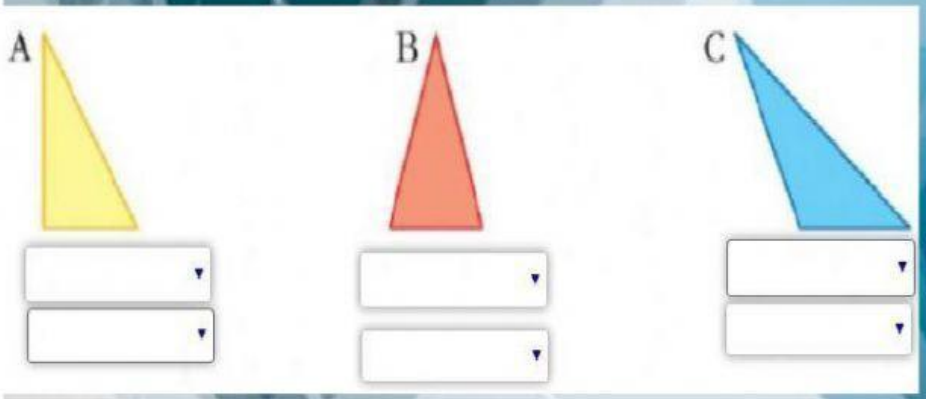

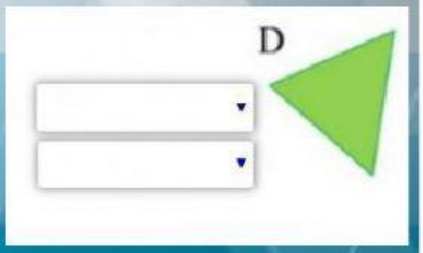

4. Escribe ahora tú su nombre:

TRIÁNGULOS	SEGÚN SUS LADOS	SEGÚN SUS ÁNGULOS

5. Completa:

Triangulos

- **Angulos**
  - _____
  - _____
  - _____
- **Lados**
  - _____
  - _____
  - _____

Obtusangulo

Rectangulo

Equilatero

Iscoseles

Escaleno

Acutangulo

ZCL