# El perímetro

Para hallar el perímetro de cualquier figura debemos _____ todos los lados de la figura.

I Hallar el perímetro de las siguientes figuras.

40 cm

15 cm

Perímetro = _____ cm

12 cm

Perímetro = _____ cm

9 cm

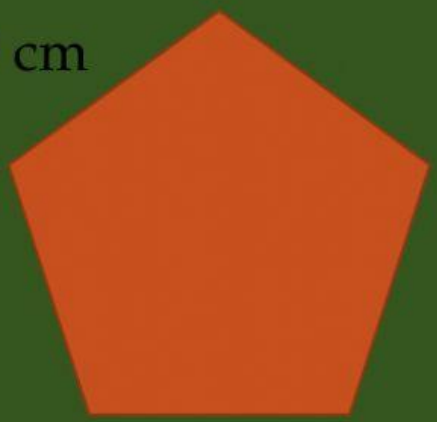

Perímetro = _____ cm

8 cm

Perímetro = _____ cm

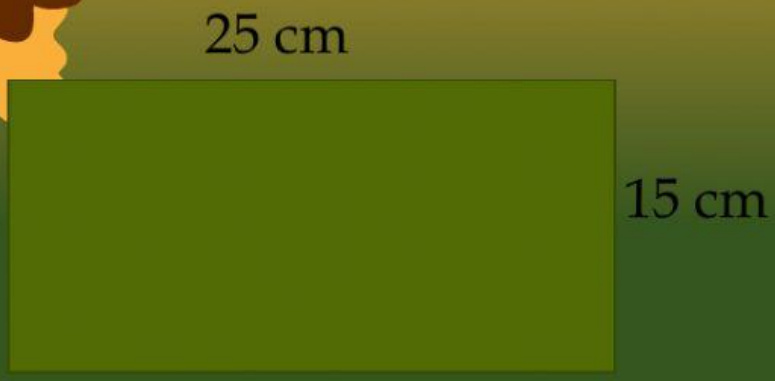


Perímetro = _____ cm




Perímetro = _____ cm

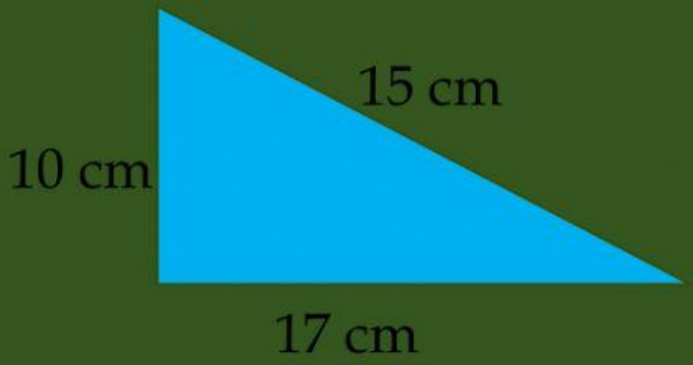


Perímetro = _____ cm




Perímetro = _____ cm

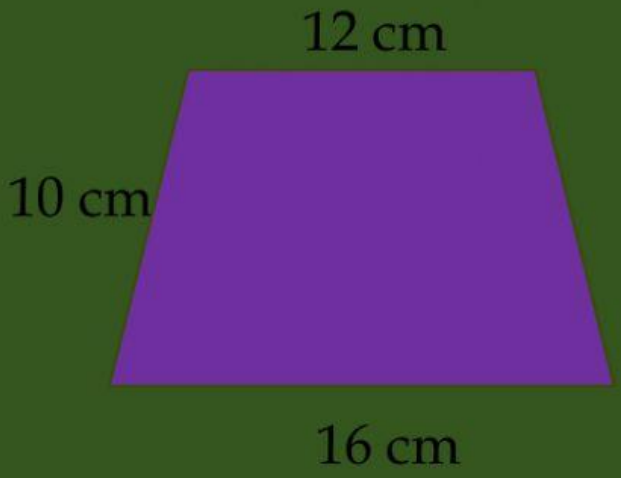


Perímetro = _____ cm

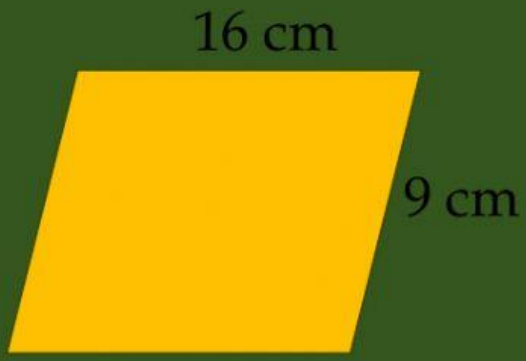


Perímetro = _____ cm

**II.** Hallar el lado que falta en cada figura utilizando como referencia el perímetro indicado.

Lado= ___ cm

**P = 36 cm**

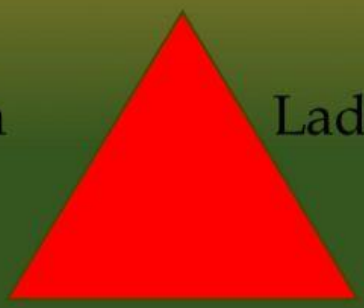

Lado= ___ cm

**P = 39 cm**

25 cm

Lado = ___ cm

**P = 80 cm**

Lado = ____ cm

5 cm

P = 40 cm

# PROBLEMAS

1) El perímetro de un cuadrado mide 20 cm. ¿Cuánto mide su lado?

a) 4 cm b) 5 cm c) 6 cm

2) Una figura rectangular mide 16 cm de largo y 9 cm de ancho. ¿Cuánto mide su perímetro?

a) 40 cm b) 50 cm c) 25 cm

3) El perímetro de un triángulo equilátero mide 48 cm ¿Cuánto mide uno de sus lados de dicho polígono?

a) 14 cm b) 15 cm c) 16 cm

4) El perímetro de un pentágono regular mide 75 cm. ¿Cuánto mide uno de sus lados?

a) 15 cm b) 20 cm c) 16 cm

5) El perímetro de un rectángulo mide 50 cm. Si uno de sus lados mide 10 cm ¿Cuánto mide su otro lado?

a) 12 cm b) 15 cm c) 14 cm