LICEO SANTA ANA SUR

"EDUCAR CON LA SABIDURIA UNO DE LOS LOGROS DEL SABER Y ENTENDER PARA EL EMPRENDIMIENTO"

EVALUACIÓN BIMESTRAL TERCERO

DOCENTES: LINDA ROLDAN – TATIANA ORTIZ

1. Escribe debajo cada polígono si este es regular o irregular.

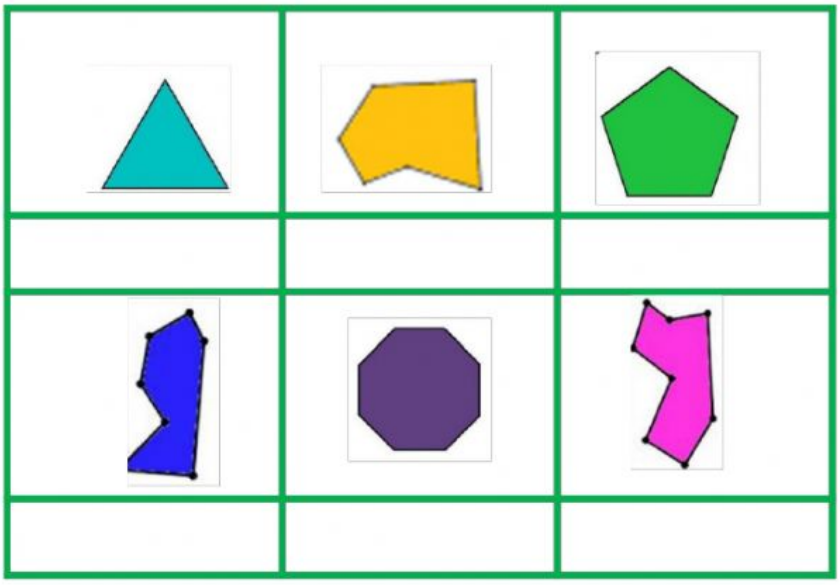

2. Halla el área de las siguientes figuras (cada cuadro tiene un lado de 1cm)

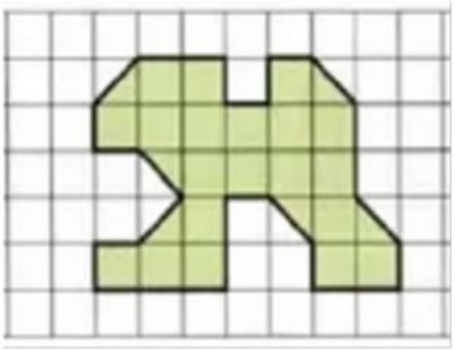

cm^2

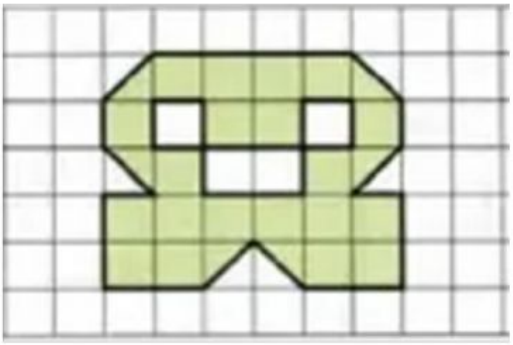

cm^2

3. Calcula el área del siguiente rectángulo.

Área :

4. Debajo de cada nombre arrastra la imagen y descripción de cada triángulo.

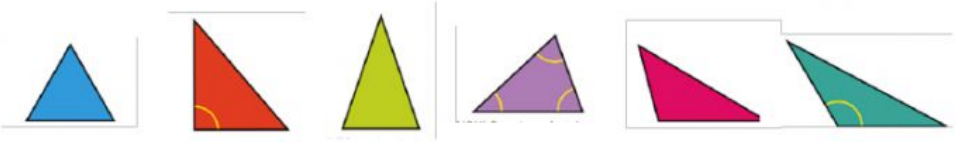

Según sus ángulos		
Escaleno	Isósceles	Equilátero
Según sus lados		
Rectángulo	Acutángulo	Obtusángulo

Sus tres lados son iguales

Sus tres ángulos que miden menos de 90°

Tiene un ángulo de 90°

sus tres lados tiene diferente medida

Tiene dos lados iguales

Tiene un ángulo mayor a 90° y menos que 180°

5. Arrastra las peras a cada canasta

Sarita tiene 24 peras y quiere repartirlas en 4 canastas. Ayuda a Sarita a repartir las peras en partes iguales.

6. Ubica las partes de la división

Divisor | Dividendo | Cociente | Residuo

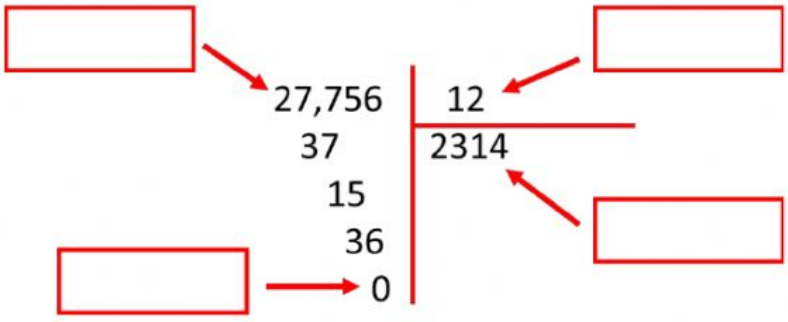

7. Realiza las siguientes divisiones

7438 | 4

9096 | 72

8. Resuelve los problemas y selecciona si la respuesta es exacta o inexacta.

La profesora de español compró 6 diccionarios por un total de $24.912 pesos. ¿Cuánto costo cada uno ?

Respuesta:

Exacta Inexacta

Un camión transporta 7.854 balones de fútbol en 86 cajas. ¿Cuántos balones habrá en cada caja?

Respuesta:

Exacta Inexacta

En un edificio viven 8.624 personas, si el edificio tiene 34 pisos . ¿cuántas personas viven en cada piso ?

Respuesta: _____

Exacta Inexacta

9. Responde:

- ¿La mitad de 18 es? _____
- ¿La tercera parte de 48 es? _____
- ¿la mitad de 6486? _____
- ¿la tercera parte de 3.333?_____

10. Escribe los divisores de los siguientes números.

D_{18} = { ☐ ☐ ☐ ☐ ☐ ☐ }

D_{24} ={ ☐ ☐ ☐ ☐ ☐ ☐ ☐ ☐ }

D_{32} ={ ☐ ☐ ☐ ☐ ☐ ☐ }

D_{8} ={ ☐ ☐ ☐ ☐ }

11. Selecciona los números que son divisibles por 3

438	7.539.459	400	253.525
872.870	6.554.001	426	1.545.126

12. Escribe 3 números de 5 cifras que sean divisibles por 5:

_____

_____

_____

13. Escribe 3 números de 3 cifras que sean divisibles por 6:

_____

_____

_____

14. Escribe 3 números de 5 cifras que sean divisibles por 10:

_____

_____

_____

15. Completa la tabla

Número	Par o impar	Suma de las cifras	Divisible por 2	Divisible por 3	Divisible por 6
7.308	Par				
609					
2.240					
5435					