CONJUNTOS

1. **Dibuja** en el diagrama de Venn los siguientes conjuntos.

a) Conjunto de animales domésticos.

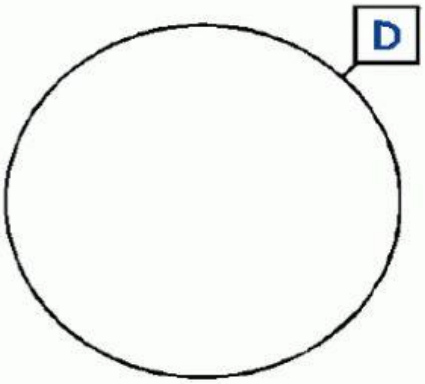

D = { _____ }

b) Conjunto de medios de transporte terrestre.

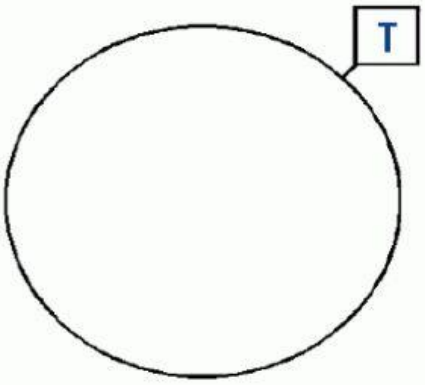

T = { _____ }

c) Conjunto de nombres de países de América del Sur.

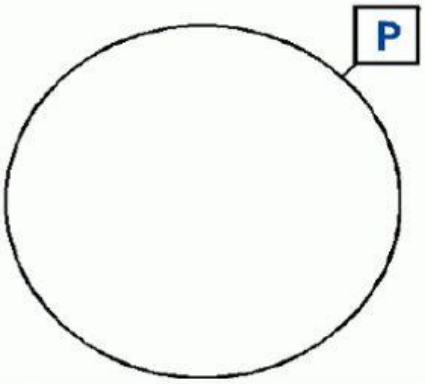

P = { _____ }

Pertenencia de conjuntos

1. Observa los conjuntos de frutas y verduras:



F



V

Un elemento pertenece a un conjunto cuando cumple con las características del conjunto.

Se representa así:

$\in$ F

$\notin$ F

2. Ahora, completa con $\in$ o $\notin$ según convenga:

_____ F

_____ F

_____ F

_____ F

_____ V

_____ V

_____ V

_____ F

_____ V

_____ V