PERIMETRO DE UN CIRCULO

Calcula el perímetro de los círculos, considerando el radio o el diámetro y $\pi = 3.14$

1)

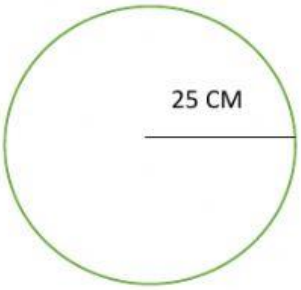

CM

2)

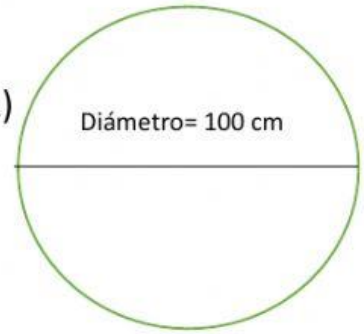

CM

3)

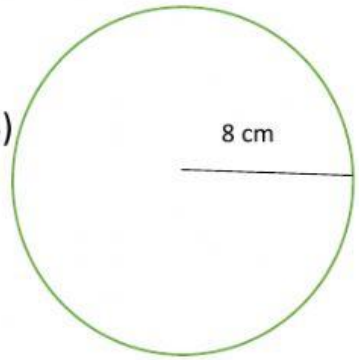

CM