ESCOLA CLASSE 25 DE CEILÂNDIA	
PROFESSOR (A):	
ANO: **TURMA:** **DATA: / /2020**	
ESTUDANTE:	

O QUE ESTÁ ERRADO?

Marque em cada grupo o elemento que não pertence a ele:



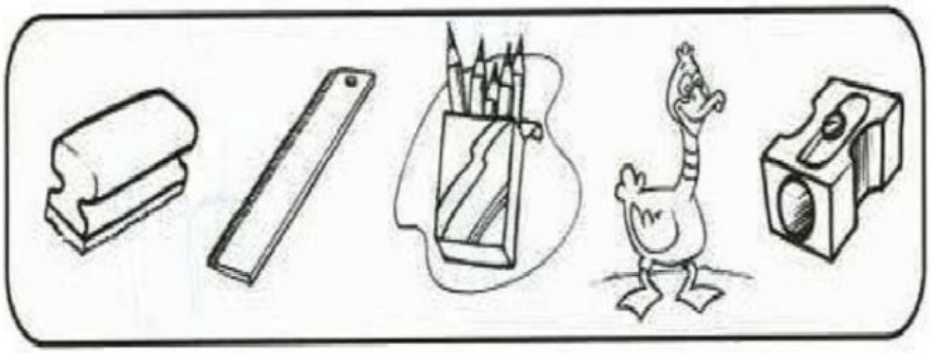



GOLPE DE VISTA

QUAL CRIANÇA TOMOU MENOS SUCO?



LIGUE OS PARES

OS PARES ABAIXO SE COMPLEMENTAM. FAÇA A CORRESPONDÊNCIA ENTRE ELES.

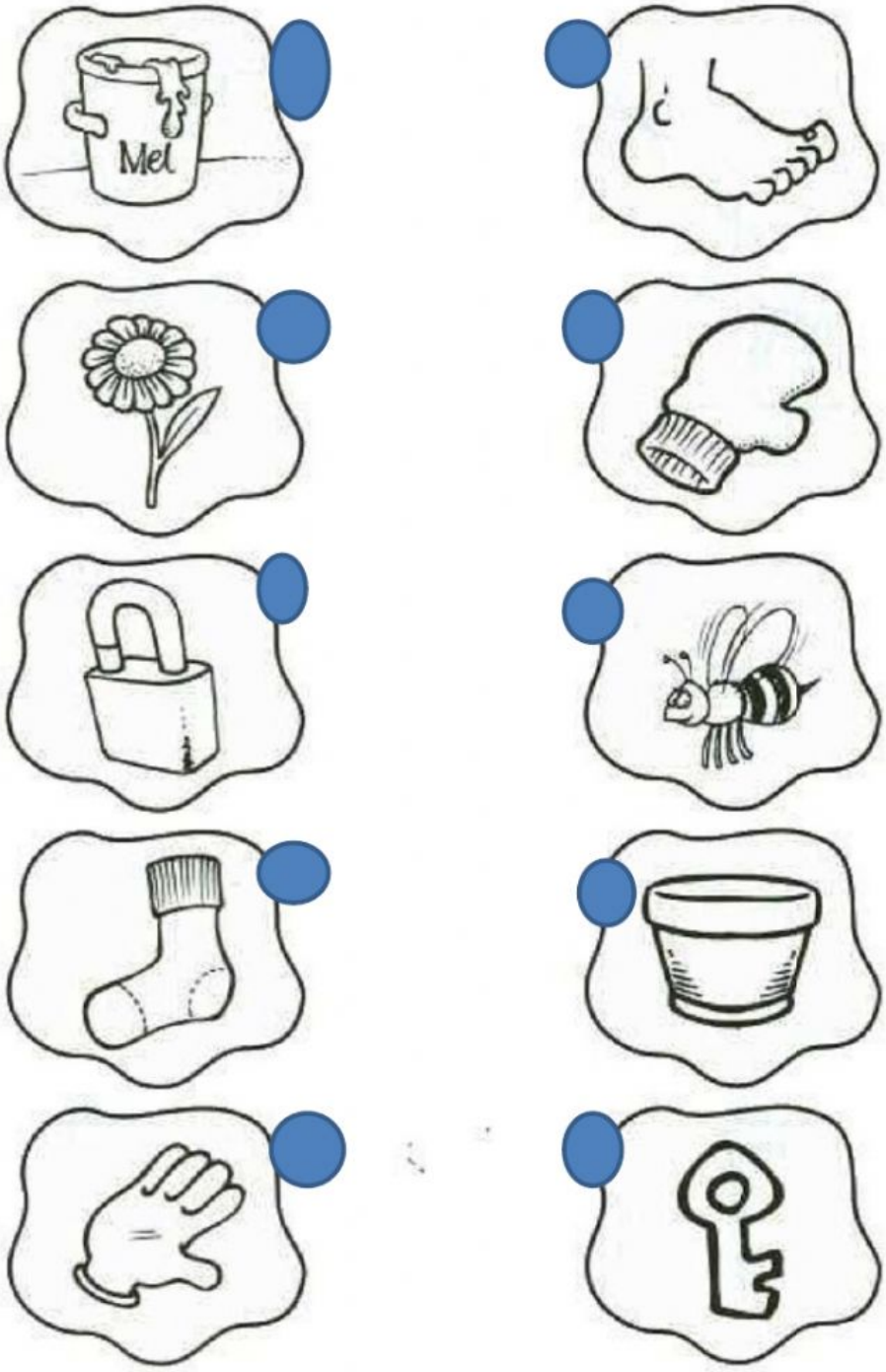

LÓGICA

OS MENINOS DA RUA FIZERAM UM CAMPEONATO DE PIPAS. OBSERVE A CENA ABAIXO.
LEIA AS INFORMAÇÕES COM ATENÇÃO E DESCUBRA O DONO DE CADA PIPA E LIGUE CADA UM A ELA.

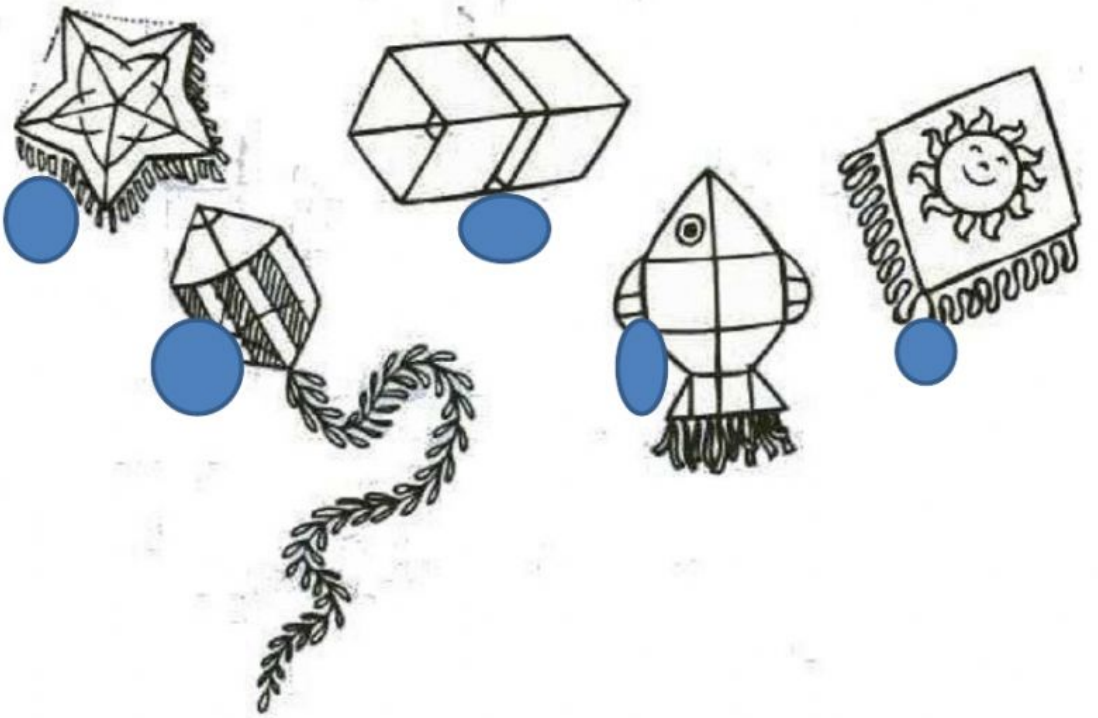



LUCIANO MARCOS FERNANDO RENATO LUCAS

A PIPA DE LUCAS TEM A RABIOLA MAIS COMPRIDA.
LUCIANO TEM UMA PIPA COM FORMATO DE PEIXE.
A PIPA DO MARCOS TEM UM SOL DESENHADO.
O FERNANDO TEM UMA PIPA COM FORMATO DE ESTRELA E A DO RENATO É SUPER DIFERENTE.