Тиждень 5 *Вивчаємо число і цифру 6*

(ім'я)

Розглянь будиночок. За яким правилом розташовані числа у віконцях? Знайди значення виразів.

1 + 3 =
2 + 2 =
3 + 1 =

4 - 1 =
4 - 2 =
4 - 3 =



1 + 4 =
2 + 3 =
3 + 2 =
4 + 1 =

5 - 1 =
5 - 2 =
5 - 3 =
5 - 4 =



Скільки преметів в кожній групі? Напиши число.

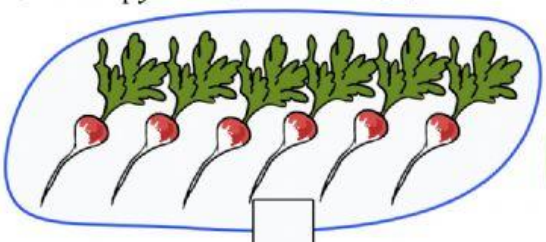
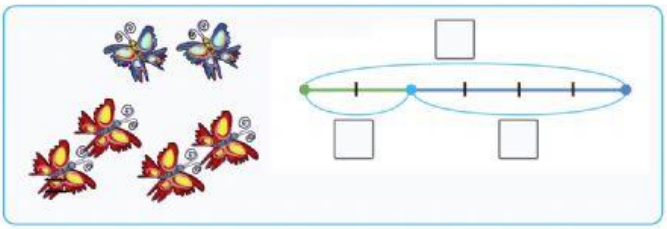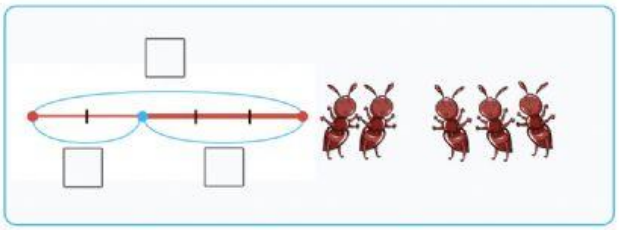
Доповни схеми до малюнків.