MULTIPLICACIÓN

Recuerda que multiplicar es sumar un mismo número repetidas veces.
Observa el ejemplo.

4 X 3 = 12

grupos elementos elementos por grupo



3 + 3 + 3 + 3

4 grupos de 3 = 12

4 veces 3 = 12

4 X 3 = 12

1. Arrastra la suma iterada que se relaciona con cada multiplicación:

3 X 2 = 6	4 X 5 = 20	2 X 8 = 16	5 X 4 = 20

4+4+4+4+4=20	2+2+2=6	5+5+5+5=20	8+8=16

2. Escribe la respuesta para cada multiplicación:



3. Resuelve los siguientes problemas. Escribe la suma iterada, la frase numérica y la respuesta.

En el campo de Juan hay 6 colmenas. Si cada una tiene 4 abejas. ¿Cuántas abejas hay en total?



suma iterada ☐ + ☐ + ☐ + ☐ + ☐ + ☐ = ☐

multiplicación ☐ x ☐ = ☐

Respuesta: Hay _____ abejas en total.

Mamá compró 3 pack de 6 latas de bebidas. ¿Cuántas bebidas compró mamá?

suma iterada ☐ + ☐ + ☐ = ☐

multiplicación ☐ x ☐ = ☐

Respuesta: Mamá compró _____ latas de bebida.