2° LAS FORMAS DEL RELIEVE Y LOS ACCIDENTES GEOGRAFICOS

1. Observa la montaña y ubica los nombres de los pisos térmicos

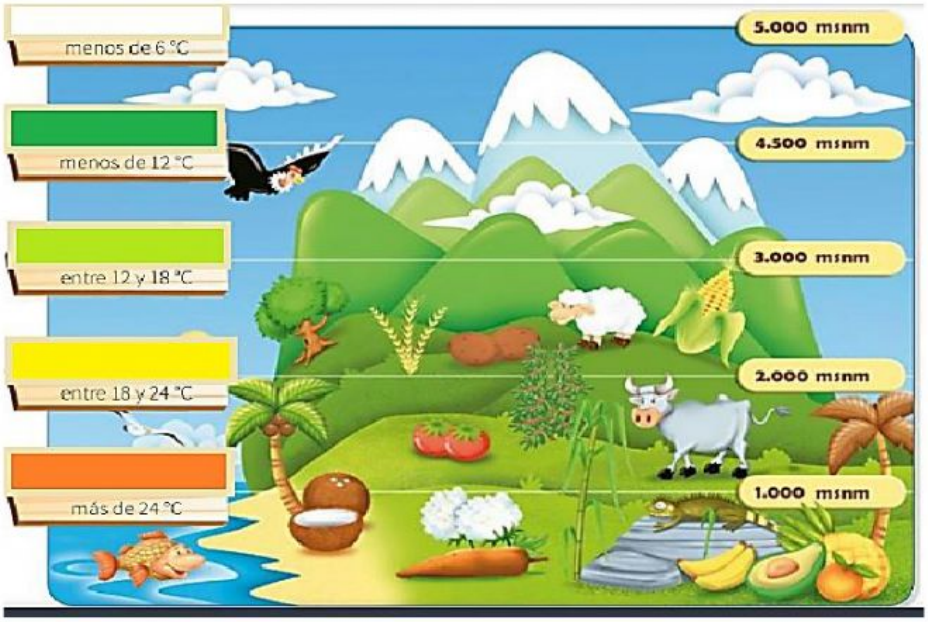

PISO CALIDO

PISO FRIO

PISO TEMPLADO

PISO PARAMO

NIEVES PERPETUAS

2. Resuelve el siguiente crucigrama:

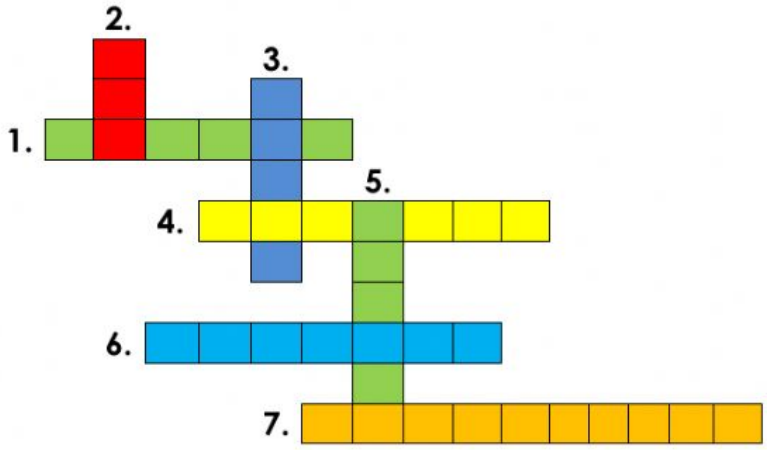

1. Es una abertura en una montaña por la que salen gases y cenizas.
2. Es una corriente de agua dulce que desemboca en el mar.
3. Es una zona plana ubicada entre las montañas y bañada por un río.
4. Es una extensión de tierra plana.
5. Es una montaña elevada, cubierta de nieve en la cima.
6. Es una elevación de tierra.
7. Es una cadena de montañas elevadas entre sí.

3. Daniel salió a dar un paseo por el campo y encontró varios accidentes geográficos, pero no sabe qué son. Resuelve las adivinanzas y sabrás la respuesta.

Mi cuerpo está hecho de varias montañas unidas entre sí.	¿Quién soy? _____
Corro sin cesar, de noche y de día, transportando agua, esa es mi vida.	¿Quién soy? _____
Soy muy plana, si miras a mi alrededor, no verás montañas.	¿Quién soy? _____
Sola solita, no tengo compañía, rodeada de mar estoy, esa es mi vida.	¿Quién soy? _____
Parezco dormido, es solo una impresión, cuando nadie lo espera, expulso lava al exterior.	¿Quién soy? _____
Soy muy alto, siempre me visto de blanco y coronado de nieve estoy.	¿Quién soy? _____

1. Busca en la sopa de letras los factores que determinan el clima. Escríbelos en el recuadro.

T	E	M	P	E	R	A	T	U	R	A
E	V	A	J	Z	H	G	O	V	D	R
G	I	B	L	L	U	V	I	A	S	E
R	E	S	O	A	M	H	P	X	E	S
D	N	U	P	B	E	I	S	A	F	O
I	T	N	R	C	D	K	T	B	I	B
C	O	L	U	E	A	C	L	I	M	A
U	S	O	V	F	D	L	U	C	A	S

_____

_____

_____

_____

_____

4. Une con una línea cada animal con el paisaje de Colombia al que pertenece. Ten en cuenta la clave de cada color

5. Observa la imagen y escribe en el círculo una N si es un paisaje natural o una C si es un paisaje cultural

6. Observa las formas del relieve y ubica los nombres en cada número.

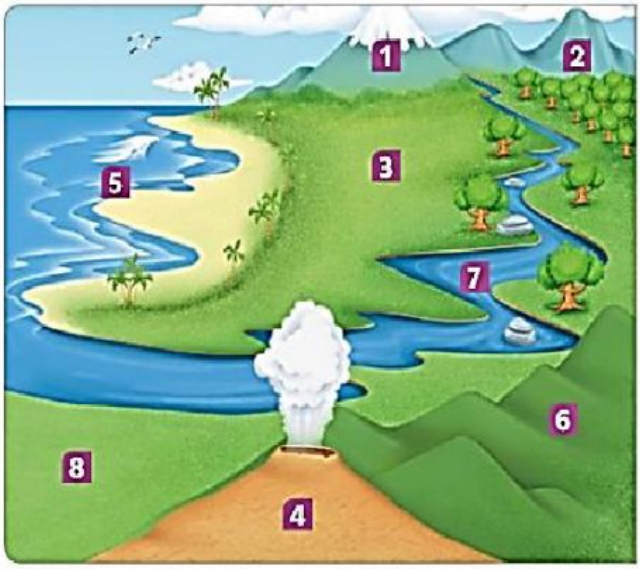

1	
2	
3	
4	
5	
6	
7	
8	

Volcán

Playa

Montaña

Río

Cordillera

LLanura

Valle

Nevado