FICHA N°1

UBICACIÓN ESPACIAL

1 ¿Qué afirmaciones son correctas?

- El gato está debajo del perro.
- El conejo esta arriba del ratón.
- El conejo está abajo del ratón.
- El perro está arriba del conejo.

2 ¿Qué afirmaciones son correctas?

- Delante de está .
- Detrás de está .
- Detrás de está .
- Delante de está .

3 selecciona la posición.

- se encuentra a la _____ de
- se encuentra a la _____ de
- está _____ y
- se encuentra a la _____ de

4 Coloca los nombres de los niños y niñas en los carteles siguiendo las instrucciones.

- Delante de **Marisol** esta sentada
  Consuelo
- A la izquierda de **Marisol** esta
  Alonso
- A la derecha de **Marisol** esta
  Bastián
- A la derecha de Consuelo esta
  Luna
- A la izquierda de Consuelo esta
  Belén

4 Completa el camino con las pistas.

Pistas

2 ↓

3 →

1 ↓

1 →

1 ↓

3 →

1 ↓


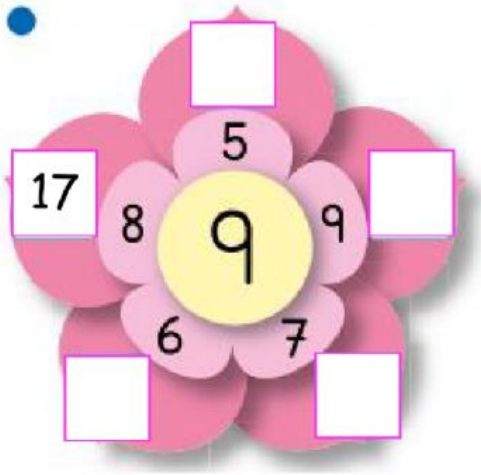
6 Calcula y registra.