Розв'яжи задачу двома способами.

Буквик купив 12 кг персиків. На другий сніданок він із Машею з'їли 2 кг, а на підвечірок до них прийшли друзі і з'їли ще 5 кг персиків. Скільки кілограмів персиків залишилося ?

І спосіб

Задача
Було – 12 кг
З'їли - ?, 2 кг і 5 кг
Залишилося - ?

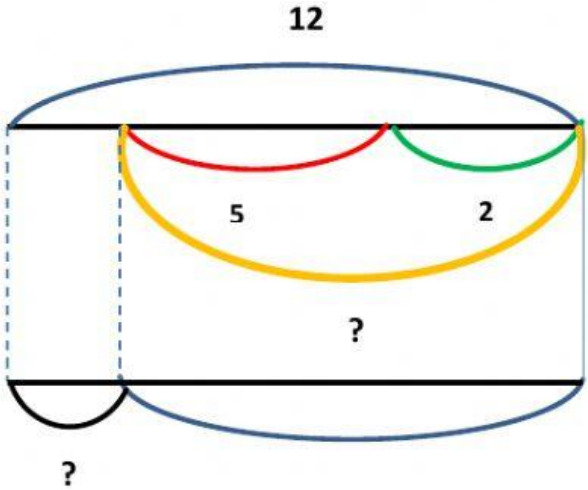

Розв'язання
1) .... + ... = ... (кг)
2) .... - .... = ... (кг)
Або запиши одним виразом
.... – (.... + ...) = ... (кг)
Відповідь: .... кілограмів персиків залишилося.

ІІ спосіб

Задача

Було – 12 кг

З'їли - ?, 2 кг і 5 кг

Залишилося - ?

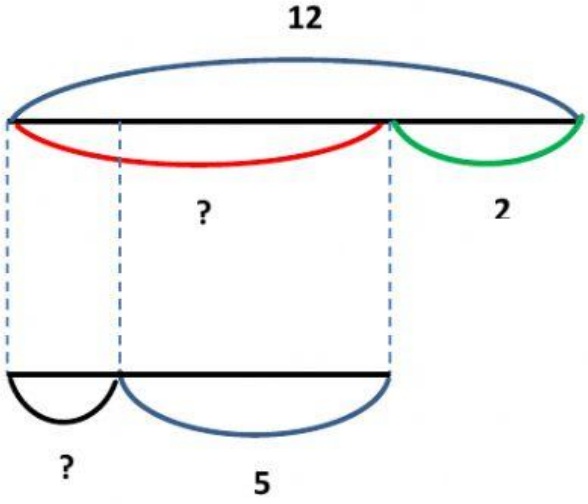

Розв'язання

1) .... - .... = ... (кг)

2) .... - .... = ... (кг)

Або запиши одним виразом

(.... – ....) - .... = ... (кг)

Відповідь: .... кілограмів персиків залишилося.

Знайди периметр многокутника.

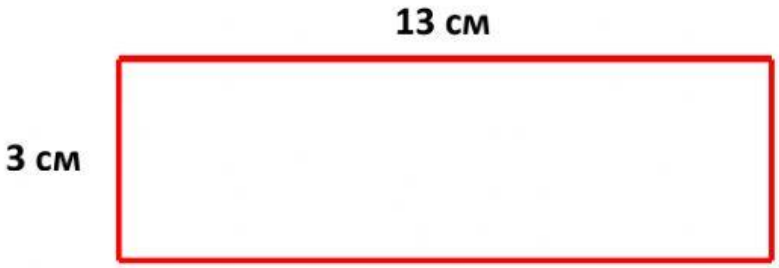

Р = ... см