Mate Recreativa
Claudia Perez

PRACTICA DE AREAS Y PERIMETROS

NOMBRE Y APELLIDO:

Curso:

COMPLETA LOS SECTORES FALTANTES CON PALABRAS Y TAMBIEN CON NUMEROS QUE TENGAN SUS RESPECTIVOS SIGNOS

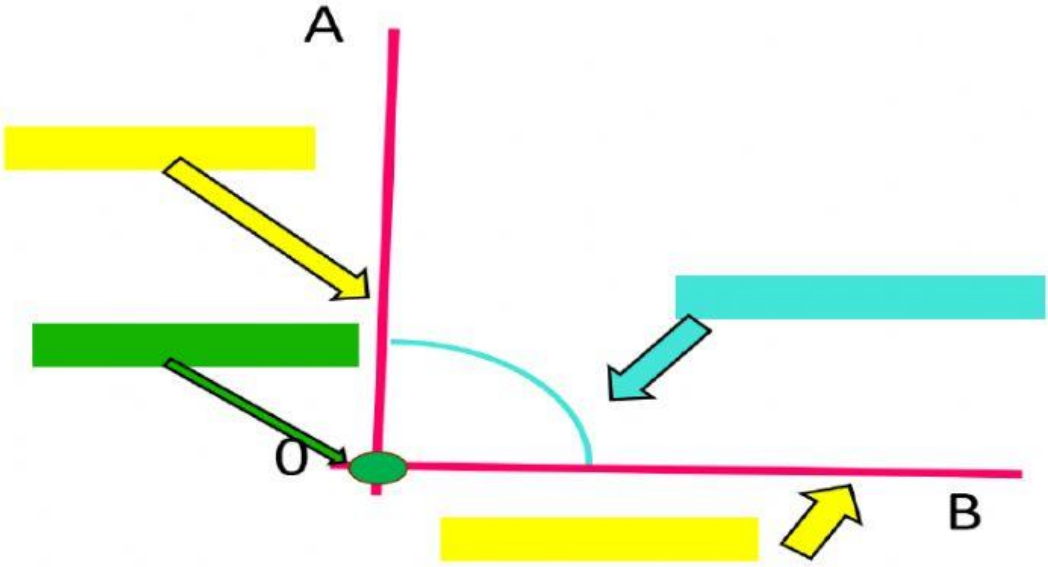

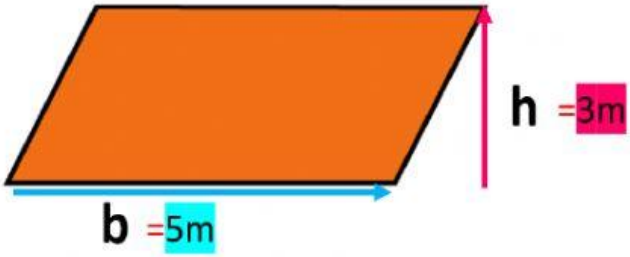

$A_{▱} = b \cdot h$

$A_{▱} = \quad \cdot$

$A_{▱} = \quad m^2$

Veras que es fácil encontrar el área de las figuras geométricas, solo debes seguir sus fórmulas y reemplazar

PROBLEMA: Encuentra el área de la región de un triangulo.

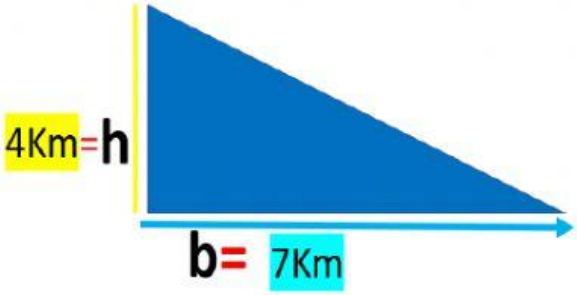

$A_{\triangle} = \frac{\cdot}{2}$

$A_{\triangle} = \frac{b \cdot h}{2}$

$A_{\triangle} = \frac{}{2}$

$A_{\triangle} = \quad m^2$

PROBLEMA: Halla el área del rombo y también el perímetro o longitud.

$A_{\diamond} = D \cdot d$

$\cdot$

$A_{\diamond} = \quad m^2$

$P = L + L + L + L$

$P = \cdot L$

$P = \cdot$

$P = \quad cm$

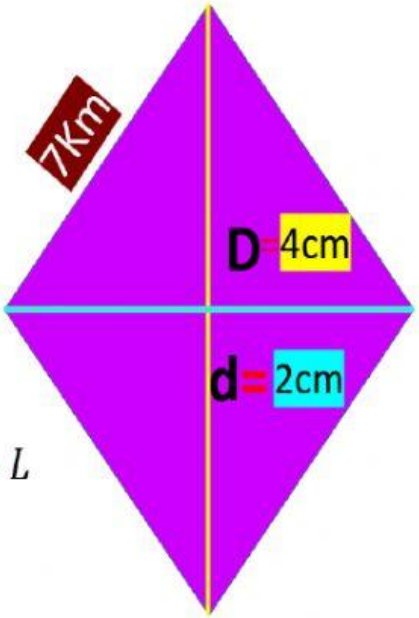

PROBLEMA: Halla el perímetro y área del circulo con r = 3

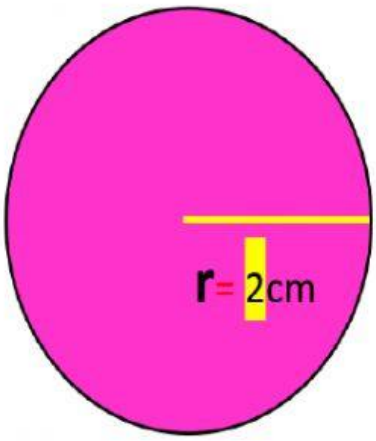

$A_{\bullet} = \pi \cdot r^2$

$\cdot 2^2$

$A_{\bullet} = \quad \cdot$

$A_{\bullet} = \quad cm^2$

$P = 2\pi \cdot r$

$P = \quad \cdot \quad \cdot$

$P = \quad cm$