LICEO ARQUIDIOCESANO DE NUESTRA SEÑORA

GRADO SEGUNDO

EL RELIEVE

1. Escucha el audio e identifica la forma del relieve y selecciona la imagen que corresponde.

2. Une la característica con cada forma del relieve correspondiente.

Valle	Es el terreno que llega hasta donde comienza el mar.
Isla	Es un terreno ubicado entre dos montañas.
Volcán	Es un terreno rodeado de agua.
Costa	Es una montaña con una abertura llamada cráter por donde sale el humo o las llamas en caso de erupción.

3. Arma los rompecabezas y selecciona que forma del relieve que descubres.

1	2	3
4	5	6



1	2	3
4	5	6



1	2	3
4	5	6



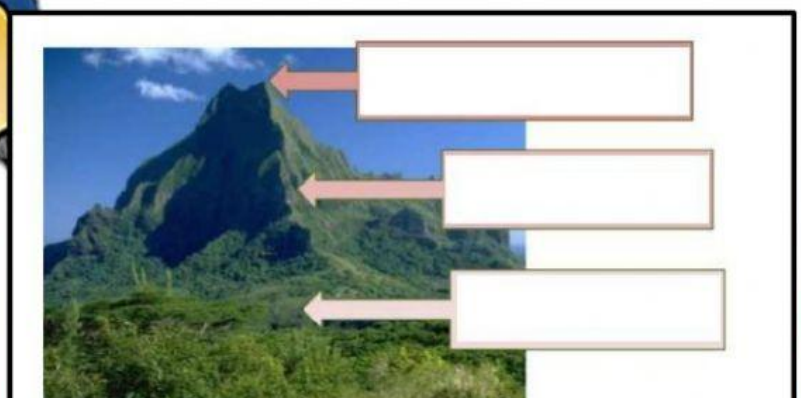

4. Organiza las partes de la montaña según corresponda.

Falda /Ladera

Cima