ورقة عمل

المدرسة: متوسطة البنين - ثانوية البنات

الفصل الدراسي: الأول | العام الدراسي: 2021/2020 | ورقة عمل رقم (9)

الاسم:..... الصف:الرابع التاريخ: / / 2020

المادة الدراسية: رياضيات الزمن: 45 دقيقة

السؤال الأول: اعتمادا على الرسم البياني المجاور الذي يمثل الفاكهة المفضلة عند طلاب الصف الرابع وطلاب الصف الخامس، صل بخط بين السؤال واجابته الصحيحة :

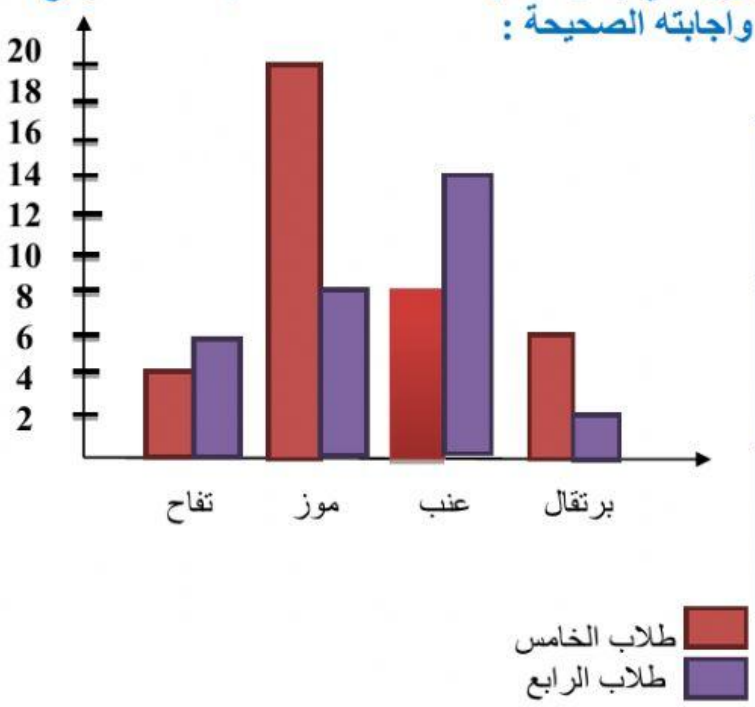

عدد طلبة الصف الخامس الذين يفضلون البرتقال	عنب
نوع الفاكهة التي يفضلها اكبر عدد من طلبة الصف الرابع	تفاح
عدد طلبة الصف الرابع الذين يفضلون الموز	6 طلاب
مانوع الفاكهة الذي يفضله 4 طلاب من الصف الخامس	8 طلاب

السؤال الثاني: اعتمادا على البيانات الممثلة في الرسم البياني، أجب عمّا يلي:

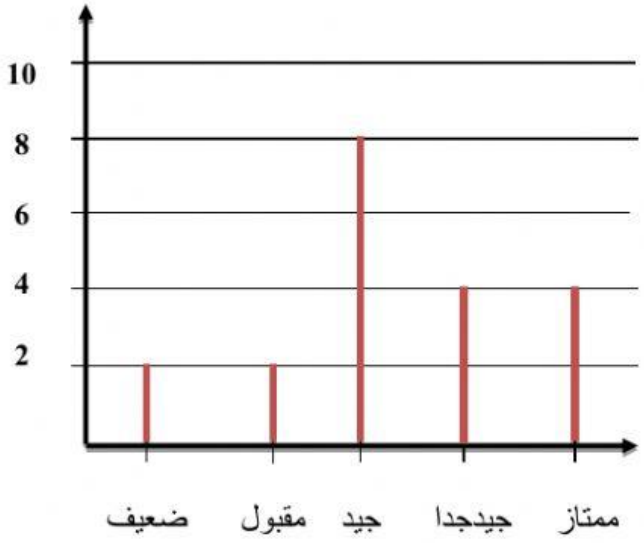

1) كم عدد الطلاب الذين أخفقوا في الامتحان؟

2) كم عدد الطلاب الذين حازوا على تقدير جيد جدا؟

3) كم عدد طلاب الصف ؟

ورقة عمل

السؤال الثالث: : اذا كان عدد طلاب الصف الرابع 20 طالبا، فحسب البيانات الممثلة بالنقاط المجمعة التالية، اختر الاجابة الصحيحة مما يلي:

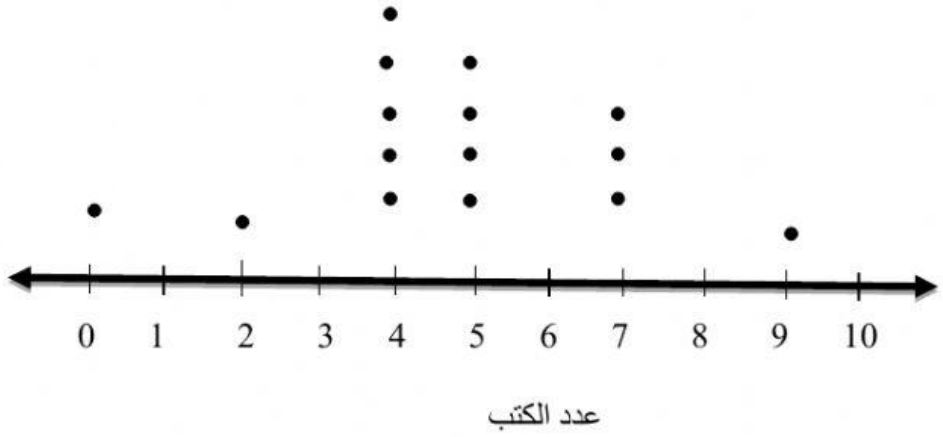

- **عدد الطلاب الذين قرأوا 5 كتب:**

أ) 5 طلاب **ب) 4 طلاب** **ج) طالب واحد**

- **عدد الطلاب الذين لم يقرأوا أي كتاب:**

ب) 5 طلاب **ب) 4 طلاب** **ج) طالب واحد**

- **ماذا يعني عدم وجود نقاط فوق الرقم 6؟**

أ) هناك 6 طلاب قاموا بقراءة 6 كتب
ب) لم يقرأ أي طالب في الصف الرابع 6 كتب
ج) عدد الطلبة 20 طالب