CONTEO DE FIGURAS

Ejemplo

20/07/20

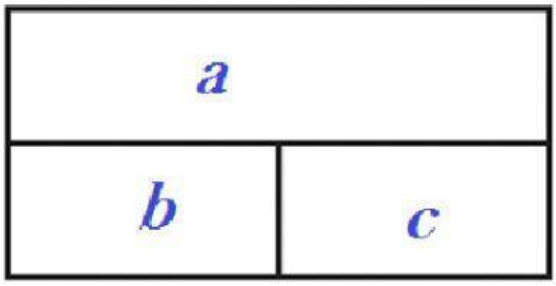

Solución

1 letra	2 letras	3 letras
a = 1	bc =1	abc =1
b =1		
c = 1		

Hay 5 ▭

1¿Cuántos triángulos hay en la siguiente figura?

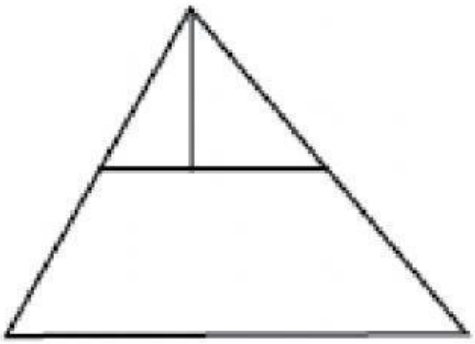

Solución

letra	letras	letras

Hay ..... △

2¿Cuántos rectángulos hay en la siguiente figura?

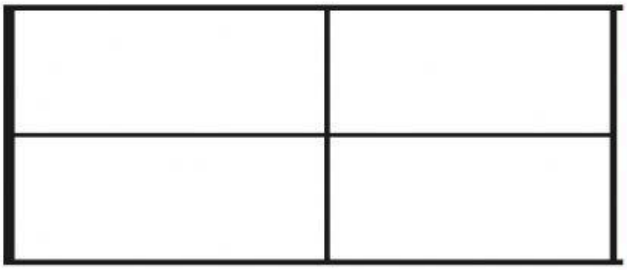

Solución

letra	letras	letras

Hay ..... ▭