Aluno(a): _____Número:_____ Data: _____/ _____

Revisão de Matemática

1) Resolva as frações de quantidade dos probleminhas abaixo:

a) Vovô tem 84 anos. Meu pai tem 2/6 da idade do vovô. Quantos anos tem meu pai?

b) Mariana tem 140 figurinhas. Vai dar 2/7 para sua colega. Quantas figurinhas Mariana vai dar?

2) Qual é a fração que corresponde a cada parte pintada das figuras ?



_____ _____ _____ _____ _____

3) Escreva como se lê cada fração:

$\frac{1}{3}$

$\frac{5}{16}$

$\frac{4}{10}$

$\frac{17}{100}$

4) Identifique os ângulos escrevendo o nome de cada um corretamente:

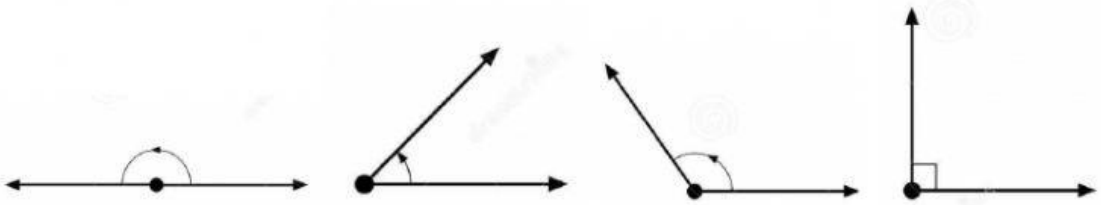

_____/_____/_____/_____

5) Identifique cada triângulo corretamente: escaleno, isósceles ou equilátero.

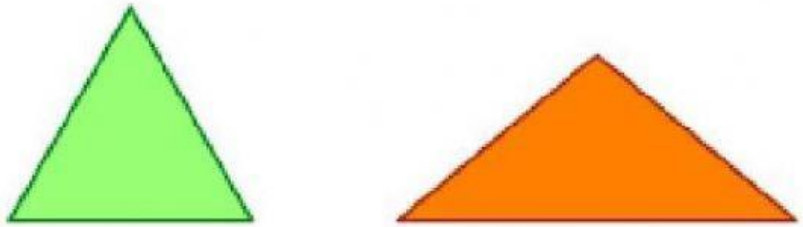

_____ _____



_____

6) Represente em forma de fração e em forma de números decimal a parte pintada de cada uma das figuras :



7) Decomponha de 2 modos diferentes as multiplicações a seguir :

a) 8 x 7 = _____

_____

b) 6 x 8 = _____

_____

8) Observe o gráfico de brinquedos do Higor. Cada barra corresponde a um brinquedo.

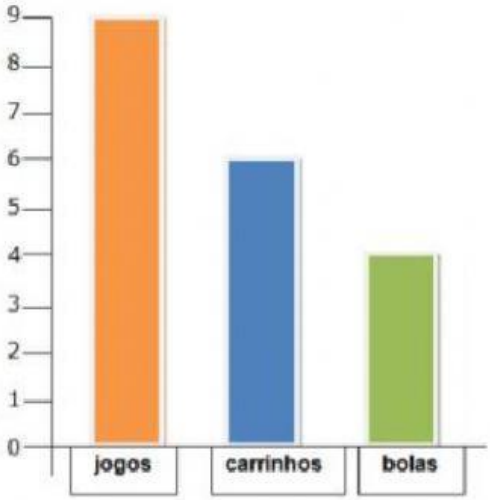

a) Quantas bolas Higor tem ? _____

b) Quantos carrinhos?_____

c) Quantos Jogos? _____

d) Quantos jogos Higor tem a mais que bolas?

_____

e) Quantos carrinhos faltam para Higor ficar com a mesma quantidades que tem de jogos?

_____

9) Resolva as expressões:

a) 13 x 8 + 8 x 45=

c) (68 + 65+ 43) x 46=

b) (16+ 67-26) x 32=

d) 56 x 12 + 38 x 18 + 68=