TALLER DE BIOLOGIA 1

CLASIFICACION DE LAS CELULAS

CÉLULA PROCARIOTA

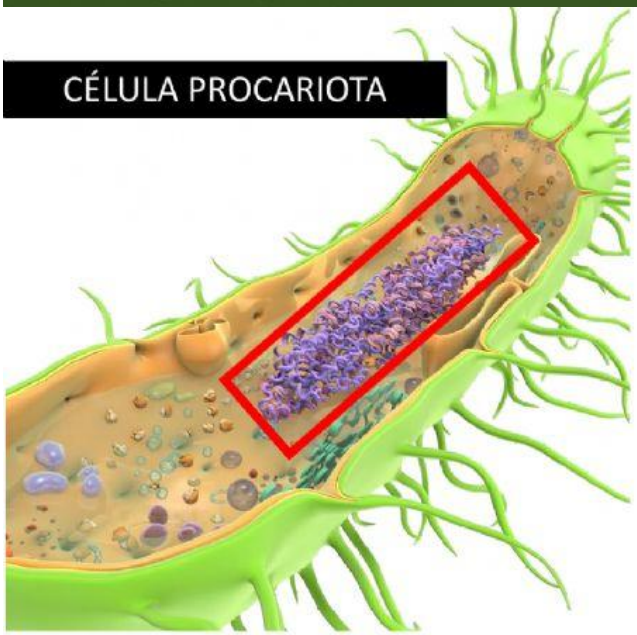

CÉLULA EUCARIOTA

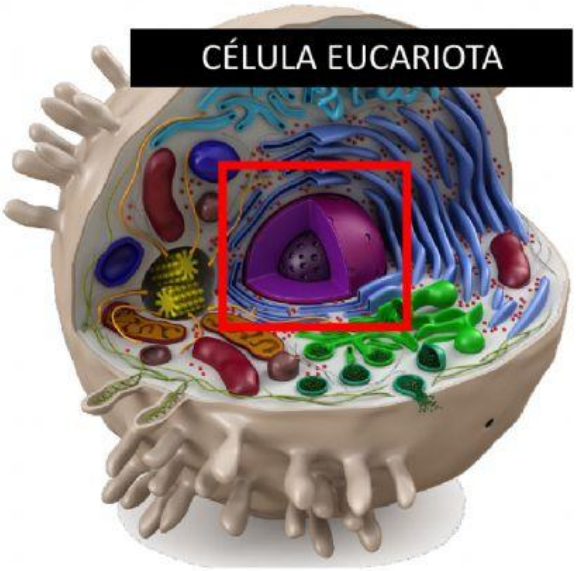

¿Cuál es tu apreciación sobre las áreas señaladas en rojo? Escribe en el cuadro

ARRASTRA Y SUELTA

PROCARIOTA		EUCARIOTA
	Células simples	
	Células complejas	
	Menos antiguas	
	Más antigua	
	Evolucionadas	
	Unicelulares	
	Unicelulares y pluricelulares	

ARRASTRA Y SUELTA

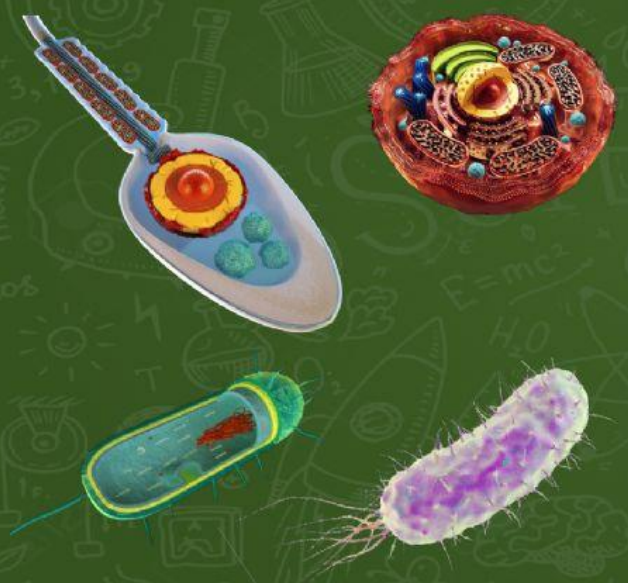

PROCARIOTA	EUCARIOTA