1° grado

UBICACIÓN DE LOS NÚMEROS HASTA 19

1.- Cuenta y ubica los números en el tablero posicional.

D	U

D	U

D	U

D	U

2.- Completa las rectas numéricas y escribe el número en el recuadro.

a. Tres posteriores a 13 ☐

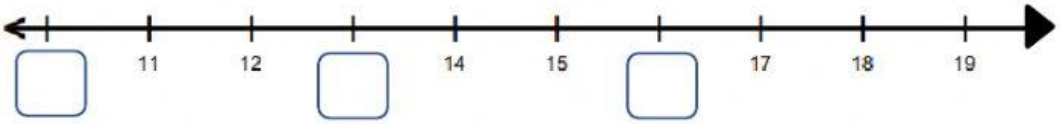

b. Dos anteriores a 19 ☐

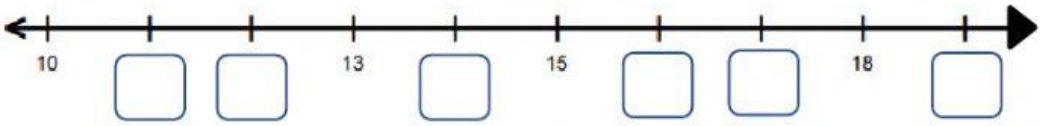
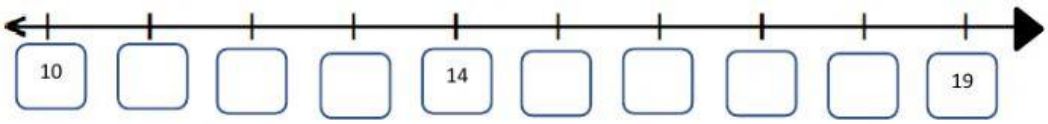
d. Cinco posteriores a 12 ☐