VALORACION DE CONOCIMIENTOS **ÁREA: FÍSICA**

CURSO: SEXTO DE SECUNDARIA **TEMA:** CIRCUITOS ELÉCTRICOS

NOMBRES Y APELLIDOS . . . . . .

1. **Elige el tipo de circuito que corresponde cada gráfico desplegando las opciones**

Circuito

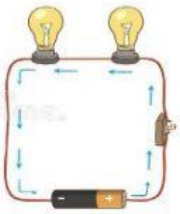

Circuito

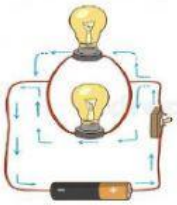

2. **Seleccione la respuesta correcta**

Un circuito es aquel conjunto de elementos que, unidos permiten la circulación de la electricidad

Falso Verdad

3. **Relaciona la respuesta correcta**

a) Circuito abierto
b) Circuito cerrado
c) Circuitos simples
d) Circuitos complejos
e) La corriente se desplaza por en un solo recorrido
f) La corriente se desplaza por varios recorridos cerrados
g) Hay circulación de corriente eléctrica
h) No hay circulación de corriente eléctrica

4. **Arrastra cada elemento de un circuito al lugar que corresponde en el gráfico**

Generador
Interruptor
Receptor
Conductor

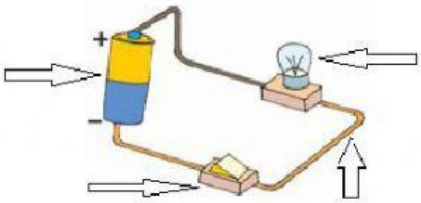

5. **Responde la siguiente pregunta**

Menciones al menos 3 aplicaciones de los circuitos eléctricos que conoces