FICHA DE TRABAJO – SISTEMA DIGESTIVO

PUNTAJE: _____ **NOMBRE COMPLETO: _____**

1. **ARRASTRA Y ARMA EL SIGUIENTE ROMPECABEZAS Y DESCUBRE: EL CONCEPTO, FUNCION Y ORGANOS DEL SISTEMA DIGESTIVO. LUEO ESCRIBELO EN EL CUADRO DE ABAJO:**

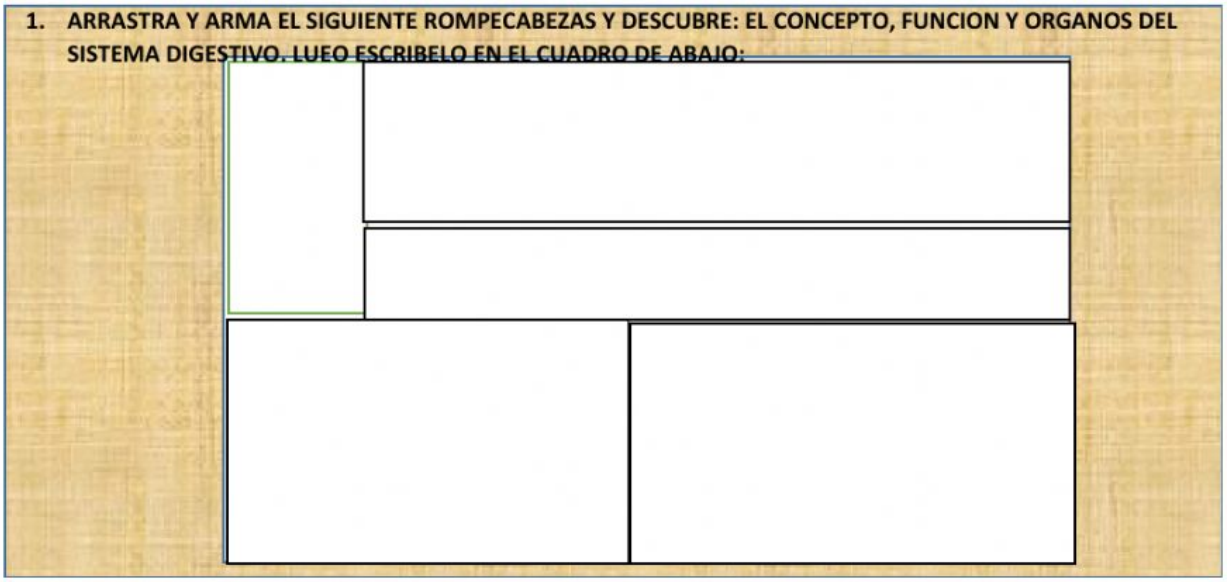

¿Qué ES EL SISTEMA DIGESTIVO?	¿CUAL ES SU FUNCION?	¿Cuáles SON SUS ÓRGANOS Y LAS GLANDULAS ANEXAS?

2. LLENA EL SIGUIENTE MAPA CONCEPTUAL:

4.ENCUENTRA EN EL SIGUIENTE SOPA DE LETRAS LAS GLANDULAS ANEXAS DEL SISTEMA DIGESTIVO:

D	K	W	Y	N	P	Q	H	P	R	O
Y	J	X	N	J	J	I	A	H	Y	W
G	B	M	I	H	I	G	A	D	O	E
H	I	S	Z	Q	S	F	R	H	X	S
N	K	W	J	H	L	G	N	X	S	G
V	E	S	I	C	U	L	A	I	G	V
W	P	A	A	P	E	N	D	I	C	E
X	S	T	O	H	D	Z	P	S	N	K
M	T	C	P	W	Z	Q	Z	V	R	R
W	Q	R	P	A	N	C	R	E	A	S
I	H	B	S	M	K	U	C	U	E	I

¿Qué GLANDULA ENCONTRASTE?	¿PARA QUE SIRVE?

4. ENCUENTRA EN EL SIGUIENTE CRUCIGRAMA LOS ORGANOS DEL SISTEMA DIGESTIVO:



Horizontales

3 se realiza la masticación, contiene a los dientes y a la lengua

5 elabora las heces fecales para desechar los excesos de la diestion

6 digiere los alimentos, segrega ácido clorhídrico al bolo alimenticio

7 tubo que conecta la boca con el estomago

Verticales

1 orificio por donde se expulsa las heces fecales.

2 conecta la boca con el esófago

4 absorbe los nutrientes de los alimentos digeridos

5. EN BASE AL SIGUIENTE VIDEO EXPLICA LA FISIOLOGIA DE LA DIGESTION:

PASOS DE LA DIGESTION:
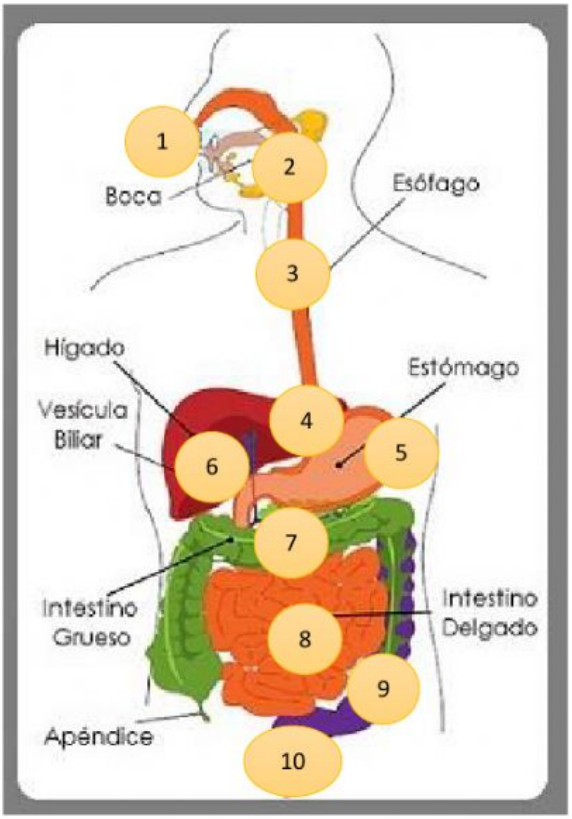
1.
2.
3.
4.
5.
6.
7.
8.
9.
10.