GEOMETRÍA ANALÍTICA

SISTEMA DE COORDENADAS – DISTANCIA ENTRE DOS PUNTOS Y ÁREA DE UN POLÍGONO

NOMBRE:

1.- IDENTIFICAR LAS COORDENADAS DE LOS PUNTOS

A=

B=

C=

D=

E=

F=

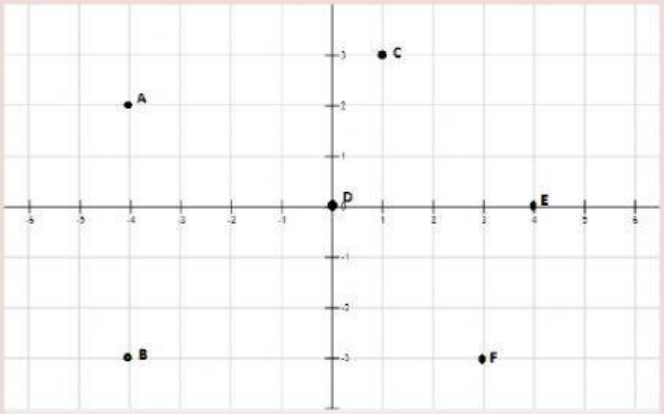

2.- Cuál es la distancia más corta que hay entre la plaza 24 de septiembre que tiene punto de referencia A (0;0) y el Cea Williams Céspedes Cossío con punto B(2km al este;1.5km al norte)

Distancia =

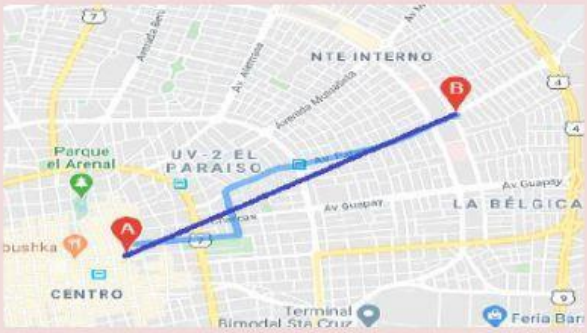

3.- ENCONTRAR EL ÁREA DEL SIGUIENTE POLÍGONO

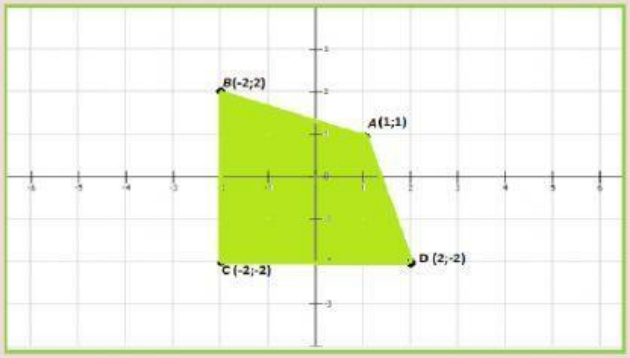

ÁREA=