Escuela de Educaciòn Basica

Lcdo Fausto Valdivieso Moscoso

Evaluacion sumativa primer parcial

1.- Nombre : _____ **2do de Bsica**

2.-Seguir la secuencia numerica de la recta y completar los numeros que faltan .

7

9

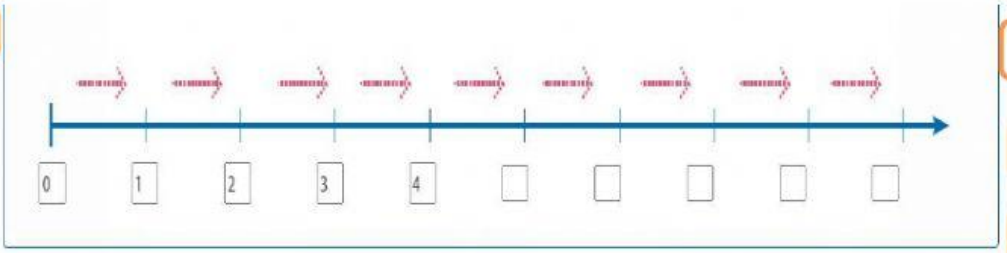

8

6

5

3.-Comparar la cantidad y colocar al lado la operación del signo >mayor que < menor que

= igual.

=

=

>

>

8 ___ 8	1 ___ 0	2 ___ 1	4 ___ 0
3 ___ 5	9 ___ 5	6 ___ 6	0 ___ 1

>

<

<

>

4.- observar y completar la tabla.

Figura	Nombre	Número de lados
△	_____	_____
▭	Rectángulo	_____
□	_____	4 lados iguales
○	_____	_____

Tiene 4 lados desiguales

Tiene 3 lados

Cuadrado

No tiene lados

Triángulo

Circulo

5.-contar los elementos y colocar el numero indicado

Camila tiene como tarea realizar un dibujo con seres de la naturaleza y para ello debe utilizar los datos de la siguiente tabla. ¿Cuántos elementos de cada clase debe dibujar Camila? **Ayudo** a Camila y **dibujo** los elementos.

Objeto	Conteo	Cantidad
	_____	_____
	_____	_____
	_____	_____





6.- relacionar la figura geometrica con el objeto .

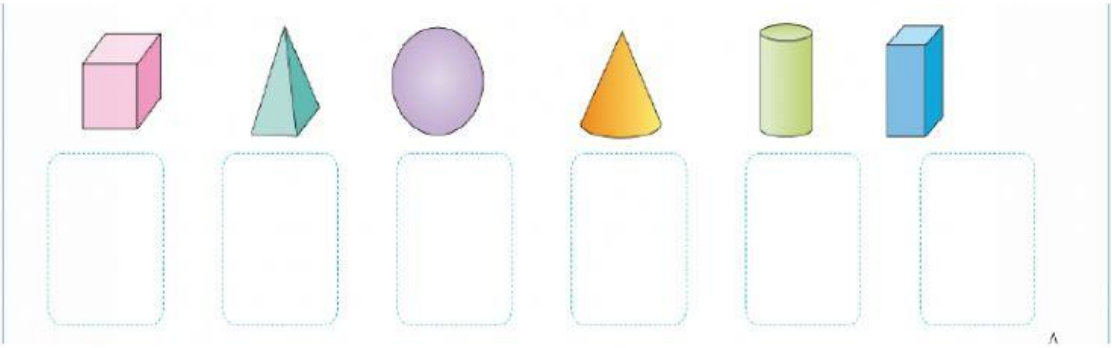

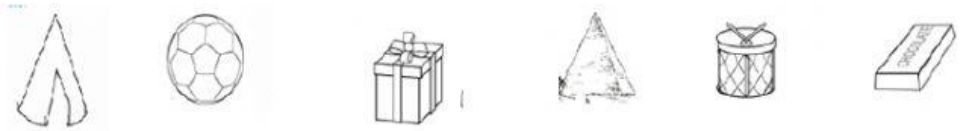

7.- completar el patrón de acuerdo al orden de la imagen.

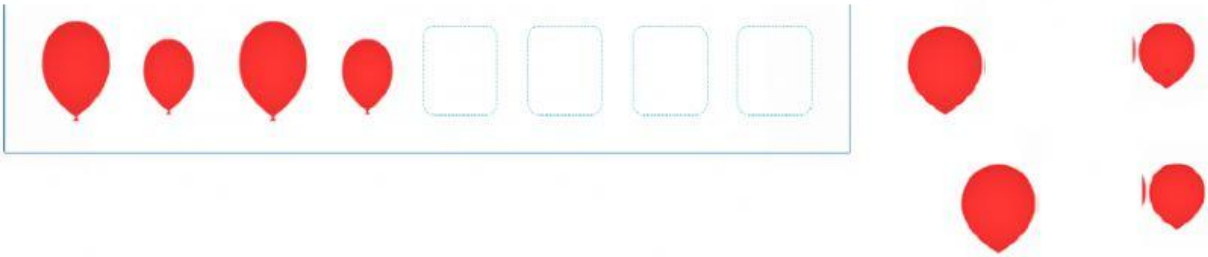

8.-Realizar el conteo d los deditos y colocar el número que indica cada imagen .

9

6

8

7

9.- poner antes o después según la situación que muestra la imagen.

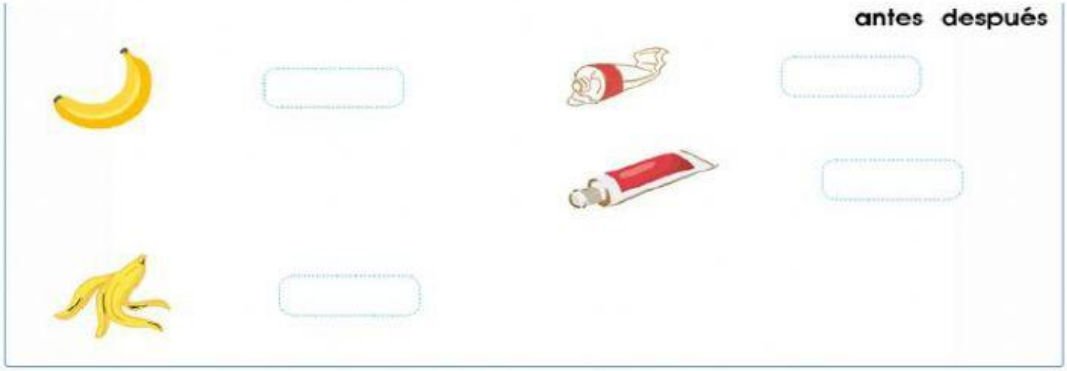

Antes

después

Antes

Después

10.-Marcar con una x los números dígitos

15 8 20 3 0