REPASAMOS

1) En el siguiente mapa el punto A representa la entrada de primaria del colegio y se trazó una circunferencia de centro A cuyo radio equivale a 200 metros. Seleccioná la opción que corresponde en cada caso:

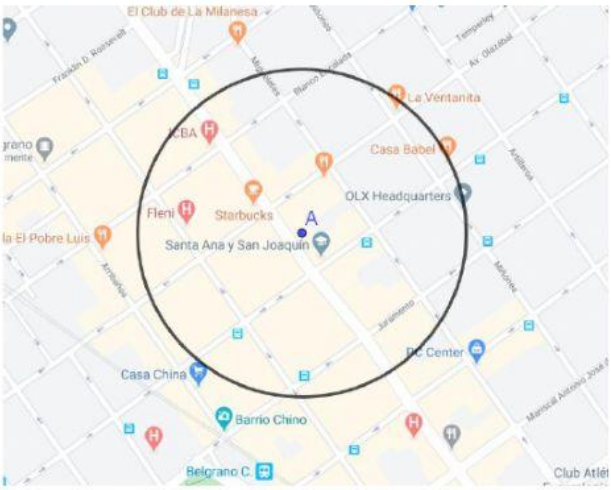

- El supermercado Casa China se encuentra del punto A.
- OLX Headquartes se encuentra del punto A.
- La Ventanita se encuentra del punto A.
- Casa Babel se encuentra del punto A.
- PC Center se encuentra del punto A.
- El Sanatorio ICBA se encuentra del punto A.
- El Club de La Milanesa se encuentra del punto A.

2) Seleccioná la clasificación correcta para cada ángulo:

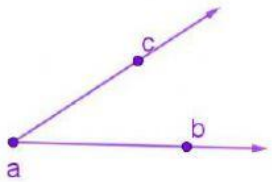

AGUDO
RECTO
OBTUSO
LLANO

AGUDO
RECTO
OBTUSO
LLANO

AGUDO
RECTO
OBTUSO
LLANO

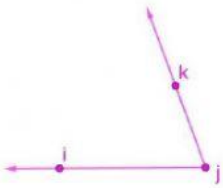

AGUDO
RECTO
OBTUSO
LLANO

3) Sabiendo que este segmento $\overline{ab}$ mide 4 cm, respondé.

- Un segmento de 8 cm mide que el segmento $\overline{ab}$.
- Un segmento de 2 cm mide que el segmento $\overline{ab}$.
- Un segmento de 12 cm mide que el segmento $\overline{ab}$.
- Un segmento de 1 cm mide que el segmento $\overline{ab}$.

No te olvides de oprimir el botón ¡Terminado! *y colocar tu nombre y apellido cuando termines todas las actividades.*