Realicemos las siguientes actividades.

Para que la balanza esté equilibrada, tienes que unir las cantidades expresadas en unidades, decenas y centenas con su correspondiente número de la derecha. Ordena primero las cantidades de la izquierda en C D U. Ilumina los pares del mismo color. Sigue el ejemplo.

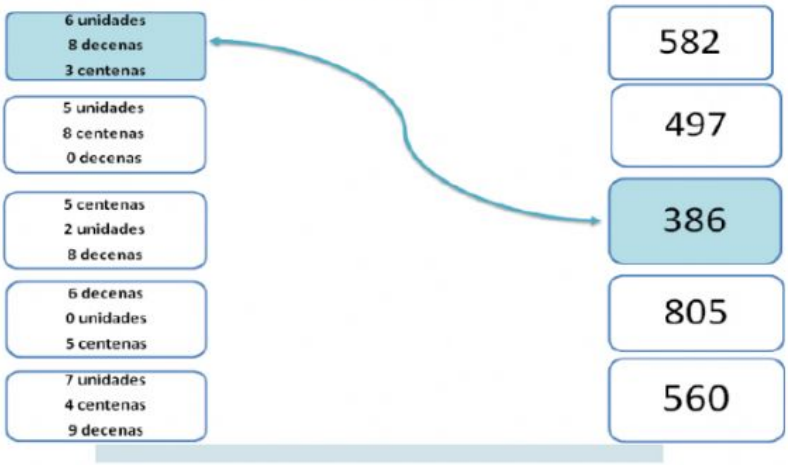

6 Don Pancho le encarga a su hija Betty que prepare las siguientes cantidades de manzanas para sus clientes y se le hace más fácil si le dice cuántas centenas, decenas y unidades deberá tener cada pedido. Ayúdale a Betty completando la tabla, siguiendo el ejemplo:

Centenas	Decenas	Unidades	Número de manzanas	Notación desarrollada	Nombre del número
5	0	7	507	500 + 0 + 7	Quinientos siete
			653		
0	**4**	**3**			
			708		
7	**2**	**9**			
			370		
8	**6**	**2**			

Si a su hijo Diego le dijo que llevara dos centenas con su tío Tomás, pero se le olvidó meter 75 manzanas, ¿Cuántas manzanas le llevó en realidad?_____

Después le encargó a Betty que prepara para otro pedido 7 centenas, y por error empaquetó 250 piezas más. ¿Cuántas manzanas preparó para el pedido Betty? _____

7 Completa las siguientes series:

De 10 en 10

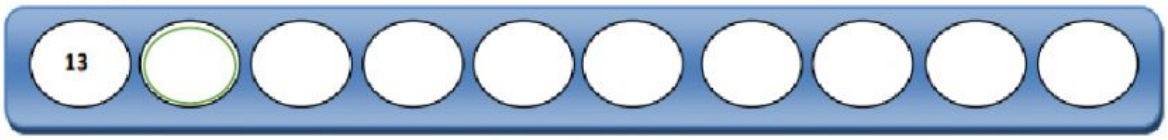

De 100 en 100