CROMOSOMAS Y CARIOTIPO HUMANO

1. **ROTULA EL CROMOSOMA**

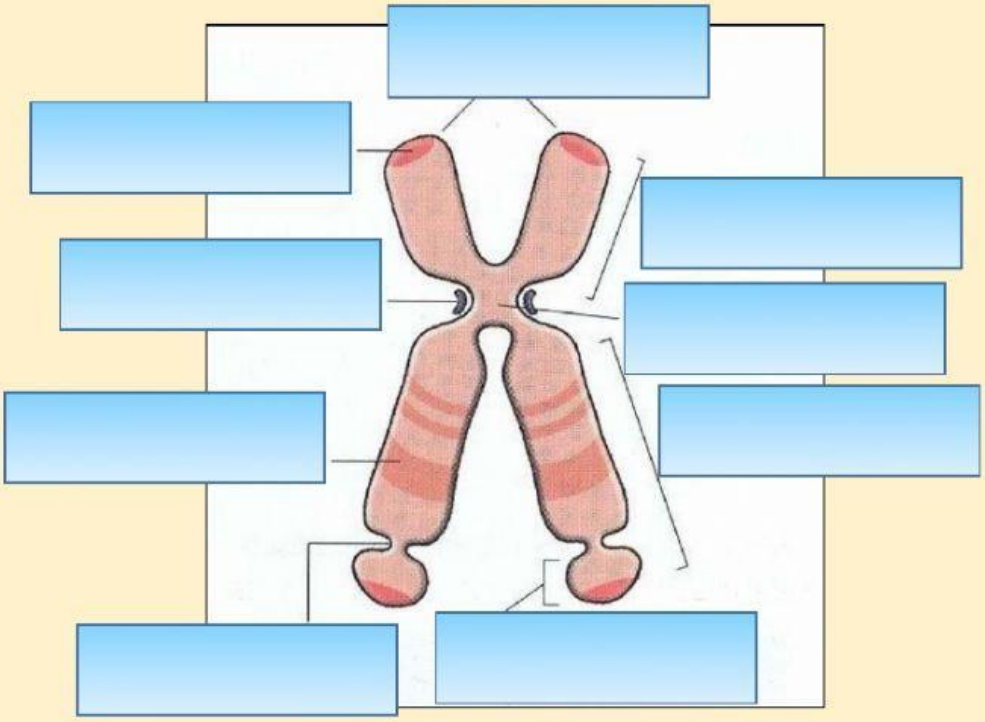

2. **UNE CON UNA FLECHA EL CONCEPTO Y DEFINICIÓN CORRESPONDIENTE A LOS TIPOS DE CROMOSOMAS.**

TELOCÉNTRICO	**EL CENTRÓMERO ESTA EN LA MITAD DEL CROMOSOMA Y SUS BRAZOS TIENEN LA MISMA LONGITUD**
SUBMETACÉNTRICO	**EL CENTRÓMERO SE SITUA EN EL EXTREMO DEL CROMOSOMA, PRESENTANDO UN SOLO BRAZO**
ACROCÉNTRICO	**EL CENTRÓMERO ESTA MUY CERCA DEL EXTREMO POR LO QUE LA LONGITUD DEL BRAZO ES MUCHO MENOR QUE LA DEL OTRO.**
METACÉNTRICO	**LA LONGITUD DE UN BRAZO ES MAYOR QUE LA DEL OTRO. EN LA DIVISIÓN TOMAN ASPECTO DE L AL SER ARRASTRADOS**

3.**ARRASTRA CADA NOMBRE DE LOS CROMOSOMAS CON SU RESPECTIVO ESQUEMA**

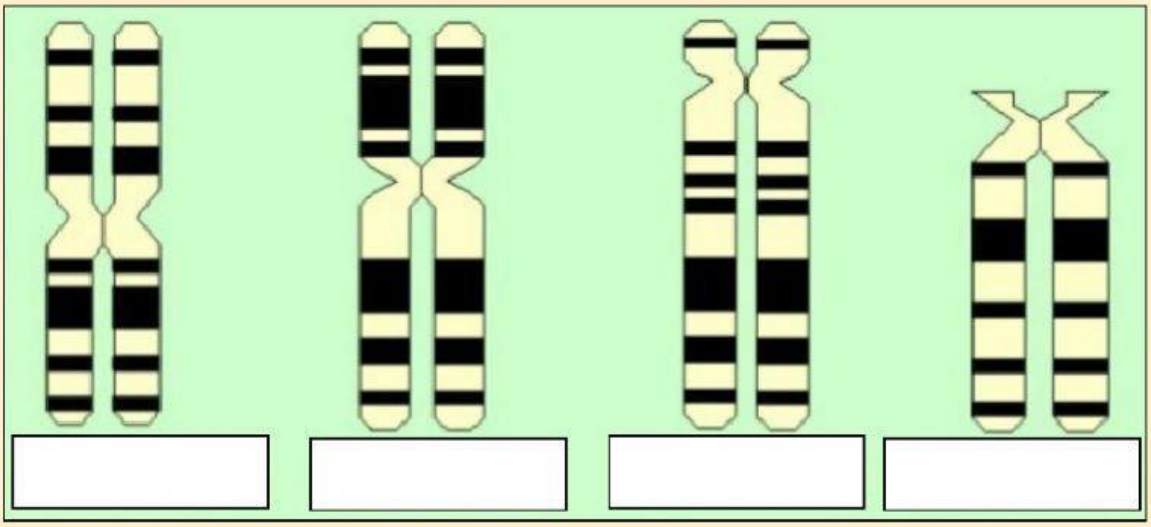

ACROCÉNTRICO	TELOCÉNTRICO	METACÉNTRICO	SUBMETACÉNTRICO

3. **DE ACUERDO AL CARIOTIPO HUMANO RESPONDE**

¿Cuáles son los cromosomas autosómico? Menciónalos

El cariotipo representa a un cariotipo masculino o femenino? Justifica
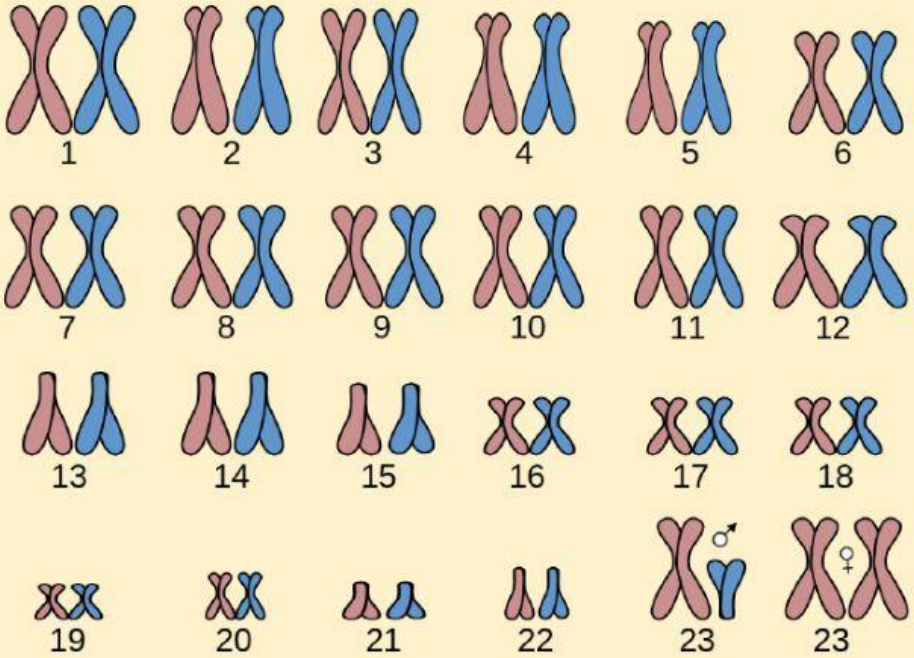
¿Cuáles son los cromosomas sexuales?