Control Unidad 12 Matemáticas

Juan Bautista Rodríguez Seisdedos
www.elcoledemombuey.wordpress.com

TODOS LOS RECURSOS DE ESTE BLOG
SON FOTOCOPIABLES BAJO LICENCIA

Nombre: Curso:

1. ¿Qué es un poliedro?

2. Escribe el nombre de los elementos de este poliedro

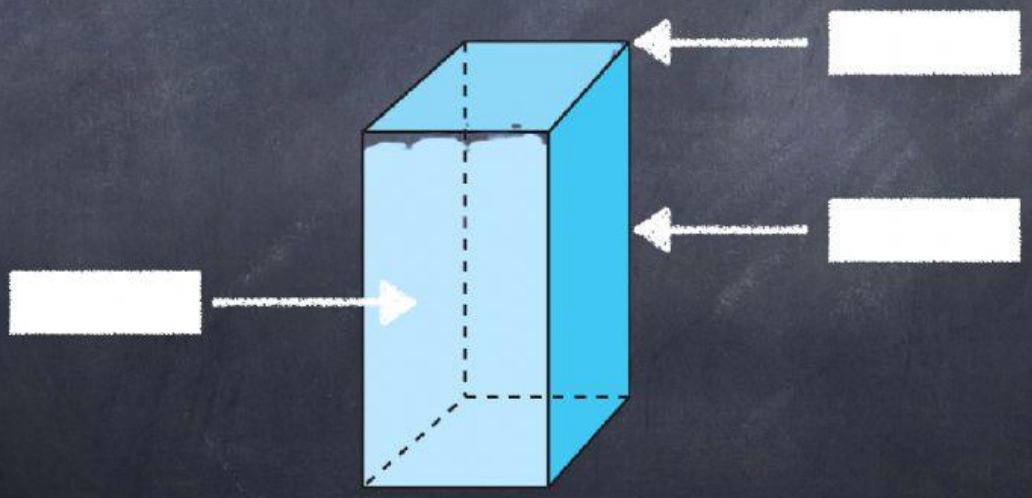

Juan Bautista Rodríguez Seisdedos
www.elcoledemombuey.wordpress.com

TODOS LOS RECURSOS DE ESTE BLOG
SON FOTOCOPIABLES BAJO LICENCIA

3. Escribe el nombre de los siguientes poliedros

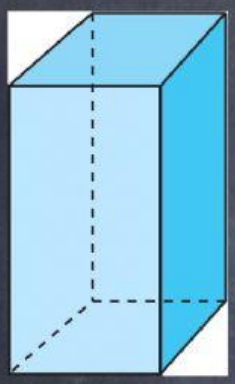



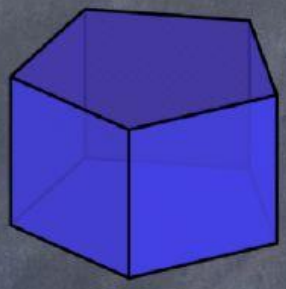



4. ¿A qué poliedros corresponden los siguientes desarrollos planos?

Juan Bautista Rodríguez Seisdedos
www.elcoledemombuey.wordpress.com

TODOS LOS RECURSOS DE ESTE BLOG
SON FOTOCOPIABLES BAJO LICENCIA





Juan Bautista Rodríguez Seisdedos
www.elcoledemombuey.wordpress.com

TODOS LOS RECURSOS DE ESTE BLOG
SON FOTOCOPIABLES BAJO LICENCIA

5. Escribe el nombre de los siguientes poliedros

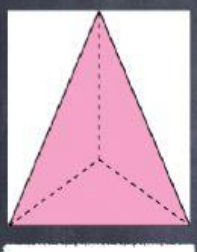

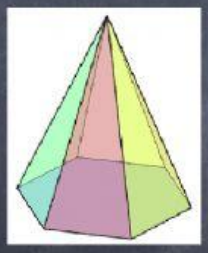

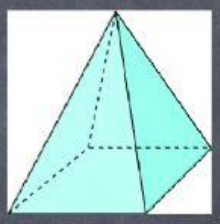

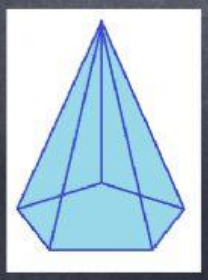

6. ¿A qué poliedros corresponden los siguientes desarrollos planos?

Juan Bautista Rodríguez Seisdedos
www.elcoledemombuey.wordpress.com

TODOS LOS RECURSOS DE ESTE BLOG
SON FOTOCOPIABLES BAJO LICENCIA





8. Explica las diferencias entre cono, cilindro y esfera.

Juan Bautista Rodríguez Seisdedos
www.elcoledemombuey.wordpress.com

TODOS LOS RECURSOS DE ESTE BLOG
SON FOTOCOPIABLES BAJO LICENCIA

9. ¿A qué cuerpos redondos corresponden los siguientes desarrollos planos?



Juan Bautista Rodríguez Seisdedos
www.elcoledemombuey.wordpress.com

TODOS LOS RECURSOS DE ESTE BLOG
SON FOTOCOPIABLES BAJO LICENCIA

10. Calcula el cubo de los siguientes números

$3 \times 3 \times 3 = 3^3 = \square$

$4 \times 4 \times 4 = \square^3 = \square$

$5 \times 5 \times 5 = \square^{\square} = \square$

$6 \times 6 \times 6 = \square^{\square} = \square$

$7 \times 7 \times 7 = \square^{\square} = \square$

$8 \times 8 \times 8 = \square^{\square} = \square$

$9 \times 9 \times 9 = \square^{\square} = \square$

$10 \times 10 \times 10 = \square^{\square} = \square$

$11 \times 11 \times 11 = \square^{\square} = \square$

$12 \times 12 \times 12 = \square^{\square} = \square$