El kilo

Para saber cuántos kilos pesan las cosas usamos la **balanza** o la **báscula.**

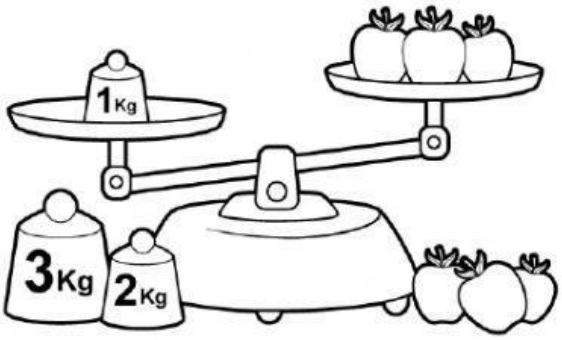

Las manzanas pesan 1 kilo.

El niño pesa 27 kilos.

1 kilo = 1 kg

Expresamos estas medidas en **kilogramos (kg)** o **kilos.**

1. Observa las balanzas y completa.



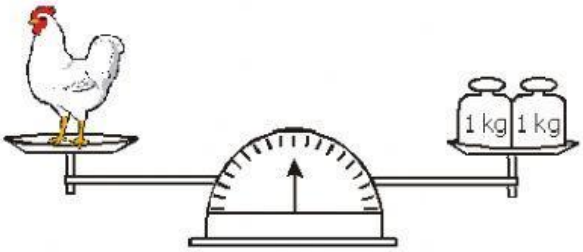

La gallina pesa menos que _____

La botella pesa más que _____

Las _____ y la _____ pesan igual.

2. ¿Qué pesa más? Piensa y responde

3. Calcula y marca más o menos.



La pesa que la

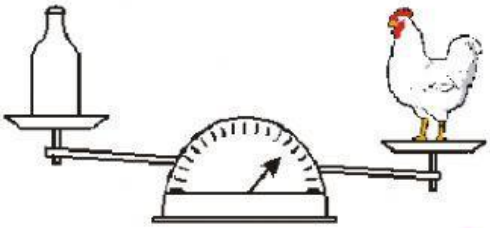

La pesa que la



Los pesan que el

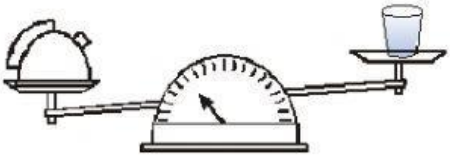

El pesa que la

4. Calcula y marca la afirmación verdadera.



- Hay más kilos de chicles que de caramelos.
- Hay más kilos de caramelos que de caramelos
- Hay los mismos kilos de caramelos que de chicles.

5. **Observa** cuánto pesa la caja de donuts.
Después, piensa y une.

Pesan 1 kilo (kg)





Pesa más de 1 kilo

Pesa menos de 1 kilo

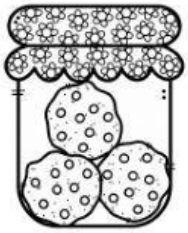

6. **¿Cuántos** kilos pesas tú? Averígualo y completa.

Peso _____

Para pesarme he usado _____

7. **Mira** el vídeo.