FIGURAS PLANAS

Completa el esquema. Cuando hayas dado a "Terminar" y esté corregido, estúdialo.

FIGURAS PLANAS

Son figuras planas formadas por una línea y su interior.

Según el tipo de línea se clasifican en:

POLÍGONOS

Están delimitadas por una línea cerrada.

Según su número de lados.

Triángulos
___ lados

___ lados

___ lados

___ lados

Muchos más...

FIGURAS CURVAS

Están delimitadas por una línea cerrada.

Según el tipo de línea curva.

limitado por una **circunferencia**

Muchas más...

La circunferencia es un@

El círculo es un@

El triángulo, cuadrilátero, pentágono, hexágono... son un@

1. Observa y escribe los polígonos que corresponden a cada color.

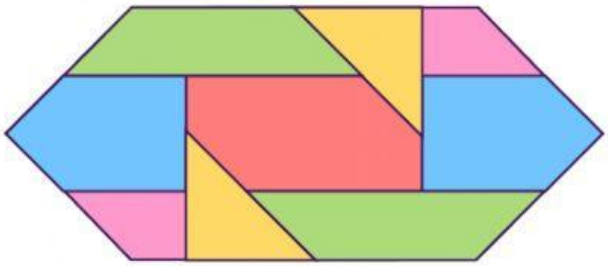

cuadriláteros

2. Explica en qué se parecen un pentágono y un hexágono.

Se parecen en que _____

Se diferencian en que _____

_____

3. Escribe sus elementos.

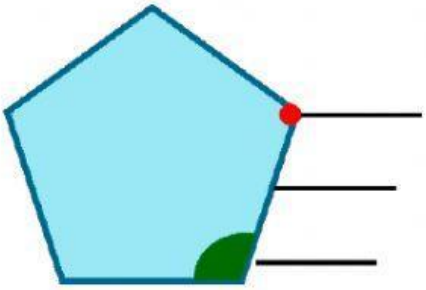

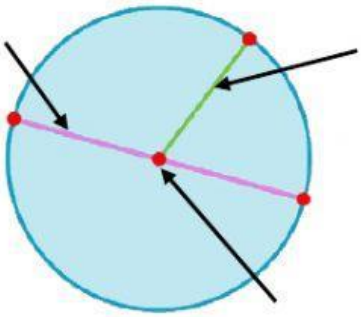

4. Clasifica los triángulos según sus lados.



5. ¿Qué polígonos son? ¿De qué clase son los triángulos de su interior?

El polígono es un .

Los triángulos son .

El polígono es un .

Los triángulos son .



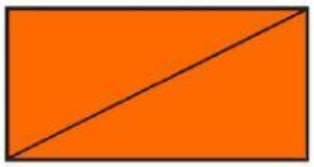

El polígono es un .

Los triángulos son .

6. **Mide y escribe. Completa.**

- El radio de la circunferencia pequeña. _____ cm.
- El diámetro del círculo pequeño. _____ cm.
- El radio del círculo grande. _____ cm.
- El diámetro de la circunferencia grande. _____ cm.

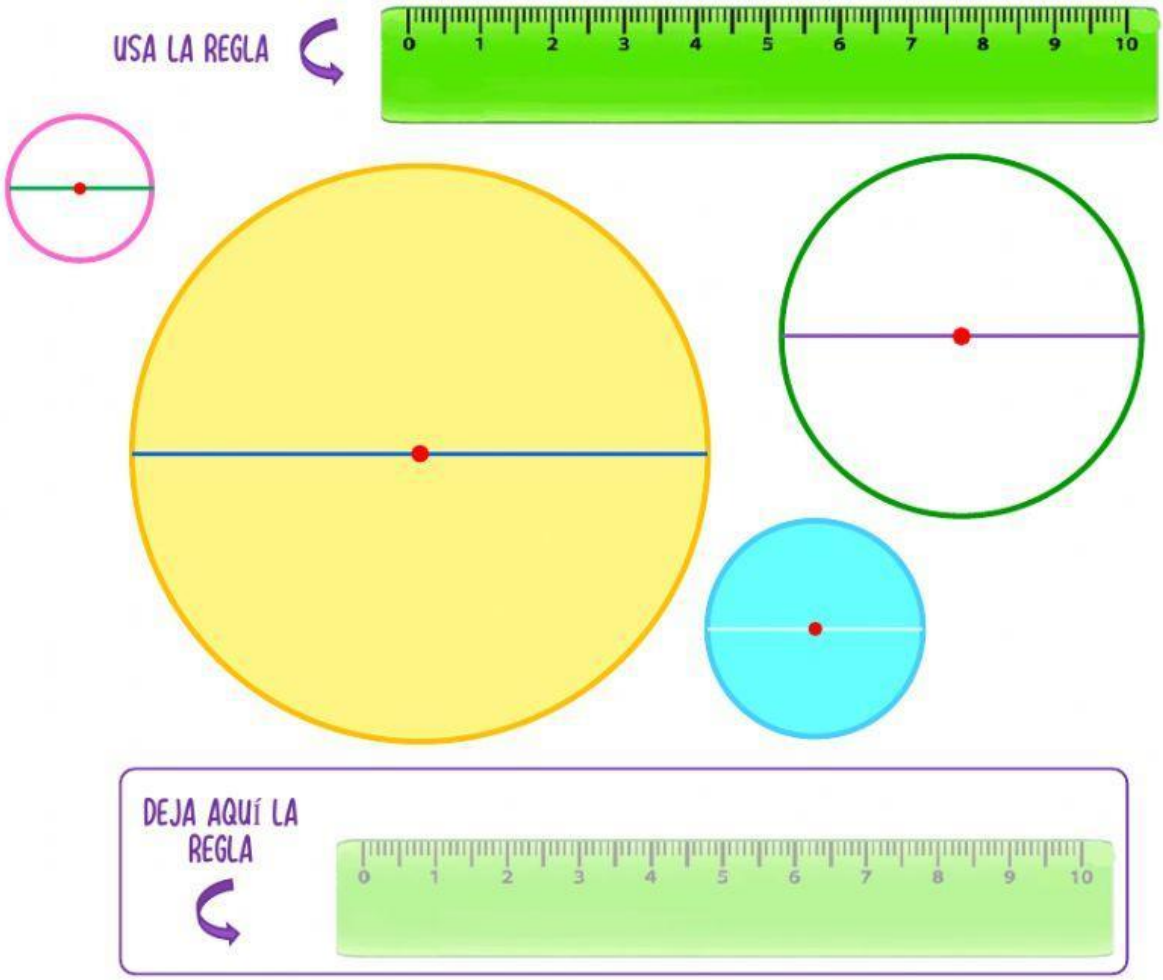

7. **Clasifica. Completa.**

nombre	triángulo			
nº de lados		4		
nº de vértices			5	
nº de ángulos				6
objetos de la vida real				