Repasa las unidades 1 – 12

1.- Escribe con cifras los siguientes números. *Poned el punto para indicar los miles (1.345) y si hay decimales , poned la coma baja, para que no os de error. (13,5).*

- cincuenta y cinco mil trescientos cincuenta
- treinta y una decenas y cuatro milésimas
- cinco millones quinientos cincuenta y cinco

2.- Completa en tu cuaderno utilizando los signos +, −, : y ×. Coloca paréntesis sólo donde sea necesario.

☐ 50 ☐ 4 ☐ 2 = 100

☐ 18 ☐ 7 ☐ 4 = 100

☐ 50 ☐ 2 ☐ 4 = 100

☐ 20 ☐ 15 ☐ 3 = 100

3.- Completa la tabla , marca con una X (*letra mayúscula*) los casillas que correspondan, puede que un mismo número sea divisor o múltiplo de varios números .

	40	48	54	60
múltiplo de 2				
múltiplo de 3				
múltiplo de 5				
múltiplo de 10				

4.-¿Cuántos segundos han pasado entre las horas que marcan estos pares de relojes?



segundos segundos

5.- Expresa en la unidad indicada en cada caso. *Poned el punto para indicar los miles (1.345) y si hay decimales , poned la coma baja, para que no os de error. (13,5).*

m	→	6 dam 7 m 2 dm ____ m.	1.458,92 dm ____ m.
dl	→	7 hl 2 l 8 ml ____ dl.	0,045 kl ____ l.
hg	→	7 t 8 kg ____ hg.	12.789,5 cg ____ hg.

6.- ¿Cuál de estas figuras no corresponde al desarrollo de un prisma? Explica por qué.

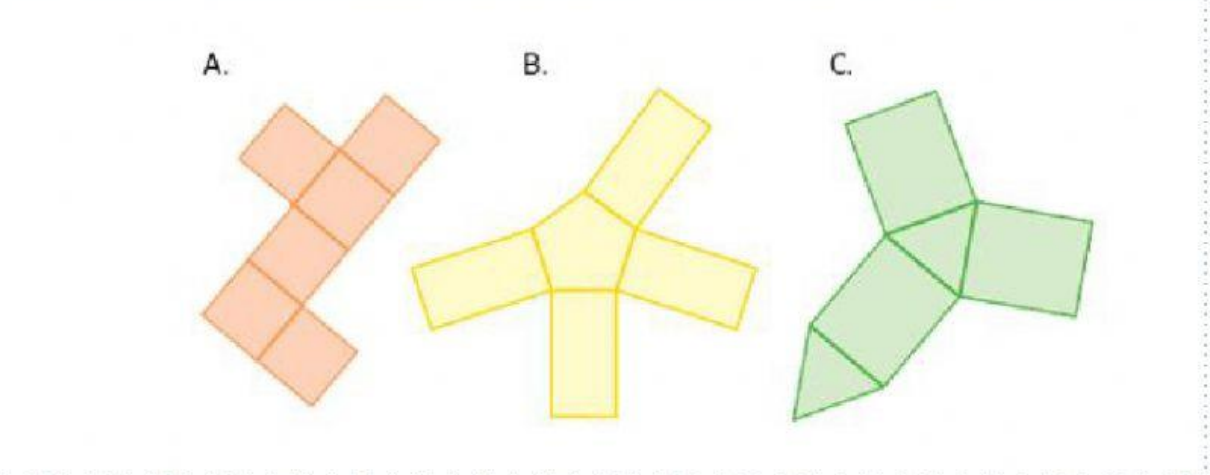

La figura que no corresponde a un prisma es la ____

Explica por qué.

7.- Resuelve mentalmente cada operación y anota su resultado

- 240 : 5 = ____ 6.060 : 5 = ____
- 570 : 5 = ____ 5.840 : 5 = ____
- 2.150 : 5 = ____ 4.500 : 5 = ____

8.- ¿Cuánto miden dos ángulos iguales que son complementarios?

¿Y dos ángulos iguales suplementarios? (Recuerda poner el signo de los grados º)

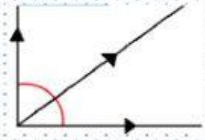

Complementarios

Suplementarios

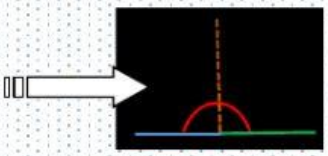

9.-En una fábrica tienen estos envases de cartón.

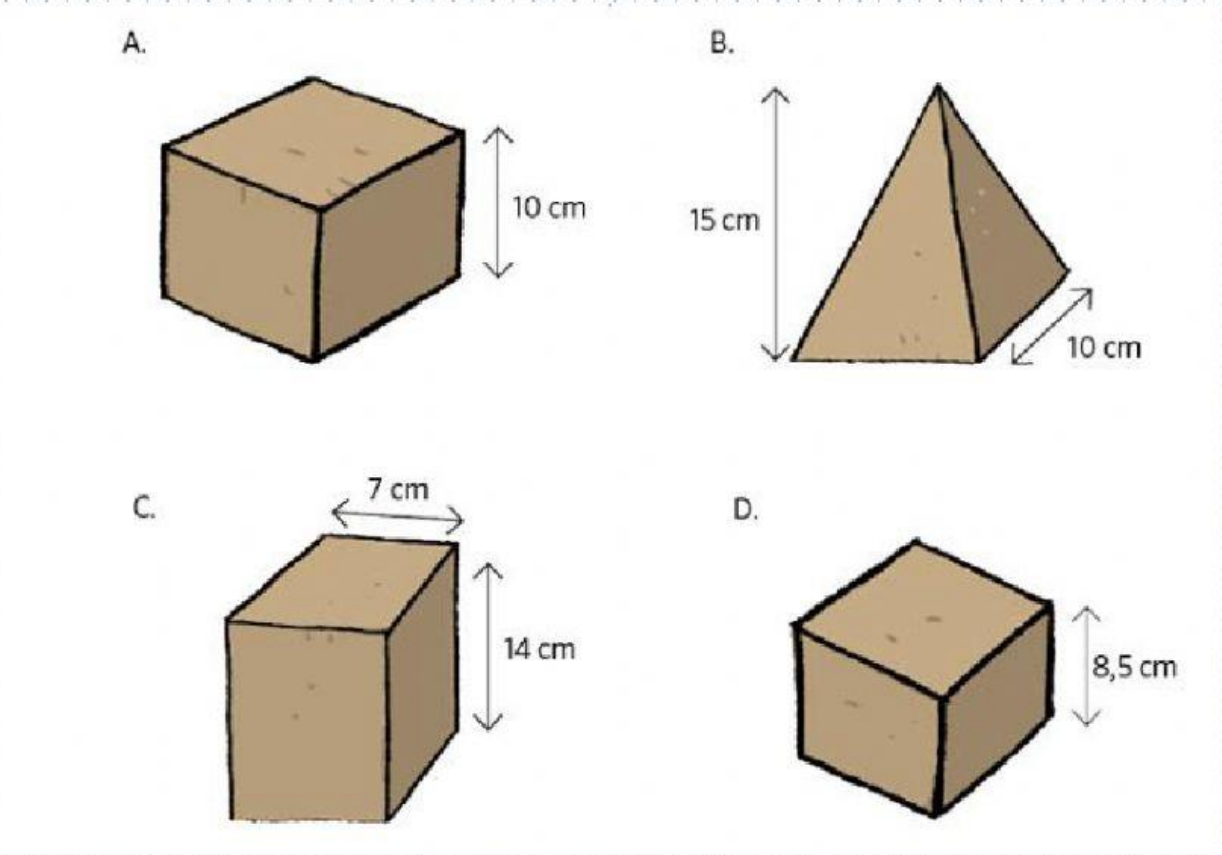

a) Si necesitan empaquetar una lámpara con forma de esfera de 4 cm de radio, ¿qué envases podrían utilizar? Podrían utilizar el envase con letra ☐
Explica por qué.

b) Cada caja con su lámpara pesa 650 g y resiste 1,8 kg. ¿Cuántas cajas se pueden apilar?
Solo ☐ cajas pueden apilar *(indica el número que corresponda).*

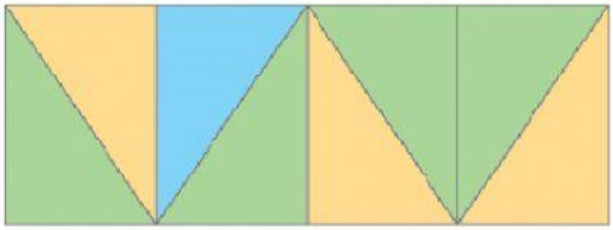

10.- ¿Qué fracción de esta figura ocupa cada color? (Para escribir fracciones usaremos la barrita que

aparece en los teclados con la siguiente forma **/ , de tal forma que al escribir fracciones quedarían así ¾)**

AMARILLO:

VERDE:

AZUL: