❸ **Escribe debajo las palabras *seguro*, *imposible* o *posible*.**

Sacar una bola gris.



Sacar una bola gris.



Sacar una bola negra.



❹ **Escribe verdadero (V) o falso (F) según corresponda.**

Es seguro sacar color blanco. ☐

Es imposible sacar color gris. ☐

Es posible sacar color gris. ☐

❻ **Calcula y después comprueba con la calculadora.**

678 + 194 | 825 – 439 | 132 × 3

❼ **Escribe qué operación se hace en cada caso y calcúlala.**

4 9 5 + 7 8 =

4 0 2 × 2 =

❽ **La película empezó a las 7 y cuarto, duró una hora y tres cuartos. ¿A qué hora terminó la película?**

❾ **Jorge llega a casa a las 7 de la tarde. Hace las tareas durante una hora y media. En cenar tarda media hora más. ¿A qué hora se va a la cama?**