مراجعة مساحة سطح الهرم
مساحة السطح وحجم الأشكال المركبة

أوجد مساحة سطح الهرم المربع القاعدة

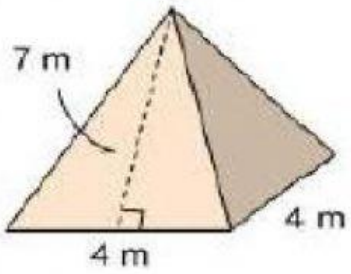

a) $37.3\,m^2$

b) $72\,m^2$

c) $231\,m^2$

d) $33\,m^2$

أوجد مساحة سطح الهرم الثلاثي القاعدة

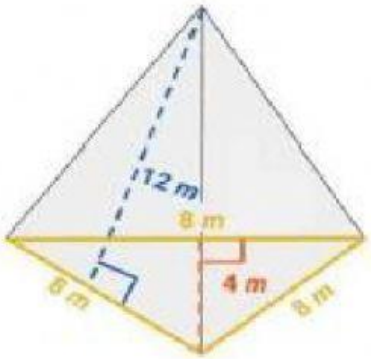

a) $64\ m^2$

b) $220\ m^2$

c) $160\ m^2$

d) $40\ m^2$

أوجد حجم الشكل المركب

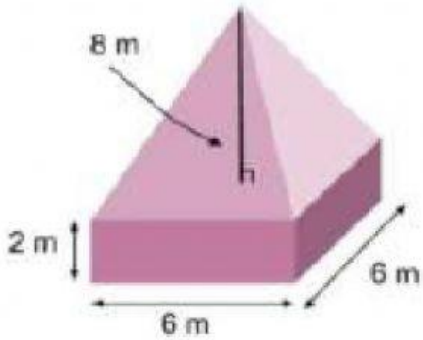

a) $576\ cm^3$

b) $168\ cm^3$

c) $157.2\ cm^3$

d) $218.4\ cm^3$

أوجد حجم الشكل المركب المجاور

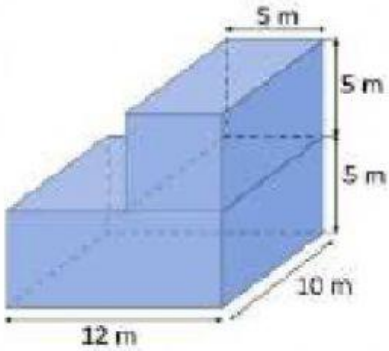

a) $15000\ m^3$

b) $125\ m^3$

c) $214\ m^3$

d) $850\ m^3$

أوجد مساحة سطح الهرم المربع القاعدة

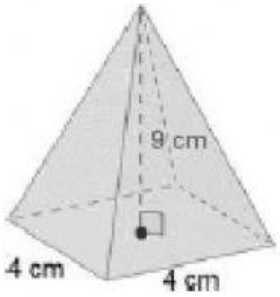

a) 24 cm^3

b) 88 cm^2

c) 230 cm^3

d) 48 cm^2

أوجد حجم الشكل المركب المجاور

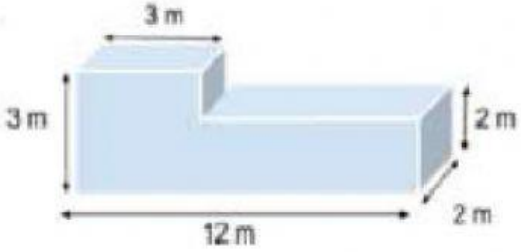

a) 432 m^3

b) 24 m^3

c) 54 m^3

d) 40 m^3

أوجد مساحة سطح الهرم المربع القاعدة

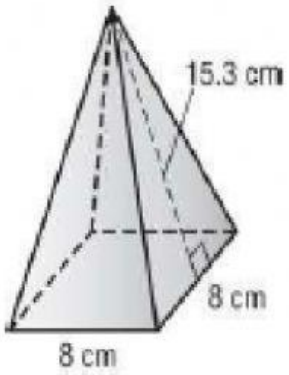

a) 326.4 cm^2

b) 308.8 cm^2

c) 31.3 cm^2

d) 979.2 cm^2

أوجد مساحة سطح الهرم المربع القاعدة

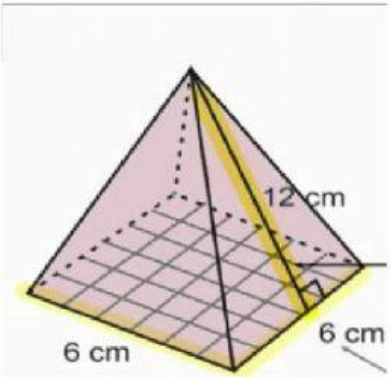

a)36cm^2

b)180 cm^2

c)144 cm^2

d)432 cm^2