13) ما نوع المثلث في الشكل المقابل ؟

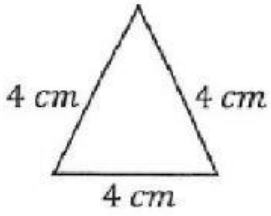

a) مثلث منفرج الزاوية

b) مثلث مختلف الأضلاع

c) مثلث متساوي الساقين

d) مثلث متساوي الاضلاع

13) ما نوع المثلث في الشكل المقابل؟

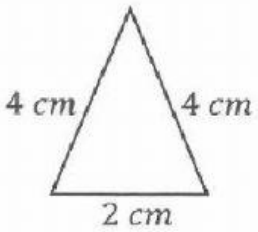

a) مثلث منفرج الزاوية

b) مثلث مختلف الأضلاع

c) مثلث متساوي الساقين

d) مثلث متساوي الاضلاع

أي من الأشكال التالية عبارة عن مثلث منفرج ؟

a) 

b)

c) 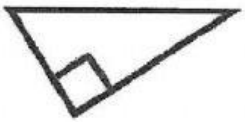

d) 

أي من الأشكال التالية عبارة عن مثلث قائم؟

a) 

b) 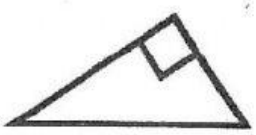

c) 

d)