D 把以下的动物根据特征分类。 SJK 第5级别

Asingkan haiwan berikut berdasarkan ciri yang sama.

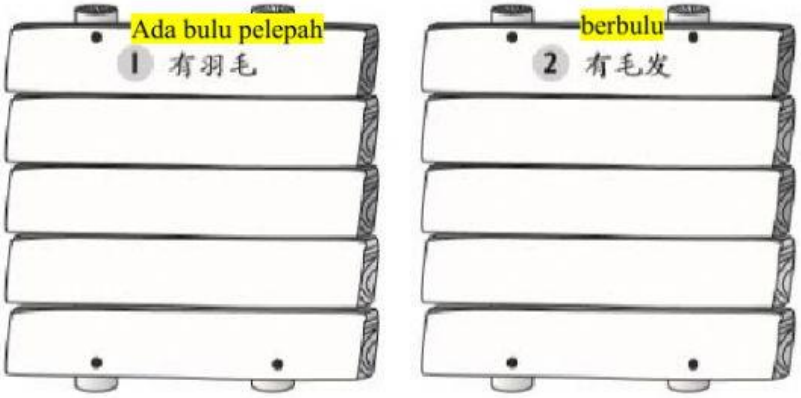

© Oxford Fajar Sdn. Bhd. (008974-T) 2018

Bulatkan haiwan yang mempunyai ciri yang dinyatakan. (Jawapan boleh lebih daripada 1)

E 以下哪些动物拥有所注明的身体部位？圈出正确的答案。（答案可以超过一个） SJK 第1级别，第5级别

1 鳞

2 羽毛

3 喙

4 翅膀



Isi tempat kosong.

G 填充。 SJKC 第6单元

menghalang	menmberitahu	membeli	
阻止	通知	允许	购买
		membenarkan	

1

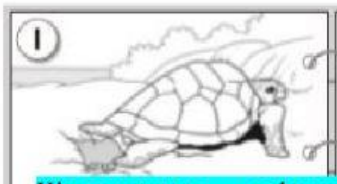

发现渔夫把海龟的卵捡起以作为食物，我们应该 _____ 他们。

Kita sepatutnya .....nelayan yang mengutip telur penyu untuk dijadikan makanan.

2

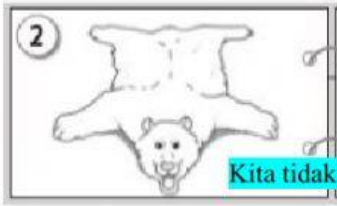

我们不应该 _____ 由动物的身体部位所制成的物品。

Kita tidak boleh..... barangan hasil daripada binatang.

3

我们不 _____ 这位男生伤害这只狗。

Kita tidak boleh.....orang tersebut untuk mencederakan anjing.

4

当发现非法捕猎时，我们应该马上 _____ 有关的负责单位。

Kita sepatutnya.....pihak berkenaan jika mendapati terdapat pemburuan secara haram.