ACTIVIDADES DE REPASO DE LAS FUERZAS Y LA ENERGÍA 1ª parte (4º de Primaria)

1. Completa con los distintos efectos que pueden tener las fuerzas.

2. Indica cómo son las fuerzas que actúan en cada caso. Puede haber más de una respuesta en cada dibujo.

Fuerza de contacto
Fuerza a distancia
Fuerza de atracción
Fuerza de repulsión



Fuerza de contacto
Fuerza a distancia
Fuerza de atracción
Fuerza de repulsión

Fuerza de contacto
Fuerza a distancia
Fuerza de atracción
Fuerza de repulsión

Fuerza de contacto
Fuerza a distancia
Fuerza de atracción
Fuerza de repulsión

3. Indica qué transformaciones de energía ocurren en cada caso.



4. Indica por qué es imposible que suceda lo que ocurre en el dibujo.

5. Arrastra y colocas donde corresponda.



OPACO

TRANSPARENTE

TRANSLÚCIDO

6. Observa y contesta.



- ¿Cómo es el prisma de la fotografía, opaco, transparente o translúcido?
- Además del aire, ¿qué otro medio atraviesa el rayo de luz?

- Explica lo que sucede con el rayo luz. ¿Qué pasa cuando entra en el prisma?

¿Y cuando sale de él?