ZEIN ZENBAKIZ ARI GARA?

- Hiru zifra ditu.
- Berrehun baino txikiagoa da.
- Batekoen zifra 0 da.
- Hamarrekoen zifra 6 da.

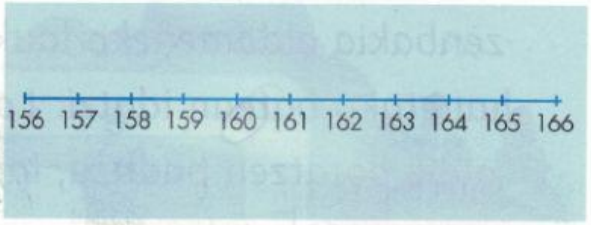

Zein da? ____

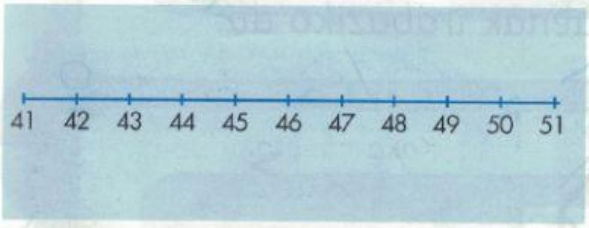

- Bi zifra ditu.
- Hamarrekoen zifra 4 da.
- Bi zifren batura 10 da.

Zein da? ____

- Bi zifra ditu.
- Hogeita bost baino handiagoa da.
- Hogeita zortzi baino txikiagoa da.
- Ez da hogeita sei.

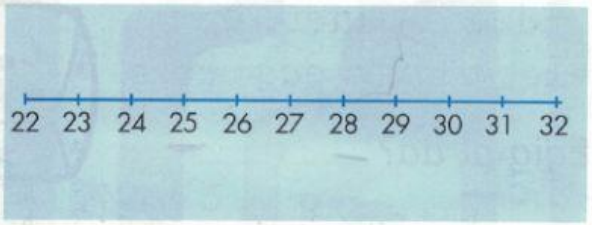

Zein da? ____



- Bi zifra ditu.
- Hogei baino txikiagoa da.
- Hamazazpi baino bat handiagoa da.
- Bikoitia da.

Zein da? ____