Instrucciones para realizar esta prueba:

Como ya sabéis los alumnos deben hacer la prueba solitos, al tratarse de una prueba online, pueden tener junto a ellos , lápiz y papel para hacer alguna operación o comprobación si fuera preciso. Los resultados será revisados por el profesor SIEMPRE.

Suerte y ánimo Castiller@

Matemáticas tema 12. Segundo de Primaria

1- Escribe en cada caso la hora que se indica. RELOJ DIGITAL

Las 5 en punto. [:] Las 4 y media. [:]

Las 6 menos cuarto. [:] Las 8 y cuarto. [:]

❷ ¿Qué hora es? Completa.

6:45 — Tres horas y cuarto después — [:]

Dos horas y media antes — [:]

9:15 — Dos horas después — [:]

Tres horas antes — [:]

❸ **Escribe debajo las palabras *seguro*, *imposible* o *posible*.**

Sacar una bola gris.



Sacar una bola gris.



Sacar una bola negra.



Sacar una carta gris.

Sacar una carta gris.

Sacar una carta gris.



4 Escribe verdadero (V) o falso (F) según corresponda.

Es seguro sacar color gris. ☐

Es imposible sacar color gris. ☐

Es posible sacar color gris. ☐



Es seguro sacar color blanco. ☐

Es imposible sacar color gris. ☐

Es posible sacar color gris. ☐

5- Calcula. DEBES UTILIZAR UN PAPEL APARTE Y AQUÍ ANOTAR SOLO EL RESULTADO, DEBAJO DE LA OPERACIÓN. NO USES CALCULADORA.

678 + 194	825 – 439	132 × 3

6- El programa de radio empezó a las 6:45 y duró dos horas y tres cuartos. ¿A qué hora terminó el programa de radio?

7- Y ESTE ÚLTIMO EJERCICIO, ES PARA SUPERCASTILLEROS. Un problema de tercero. ¡Ánimo!

Martín sale de casa a las 7 horas. Conduce hasta su trabajo durante tres cuartos de hora, trabaja cuatro horas y cuarto y se toma un café. ¿A qué hora toma el café?

¡Ya has terminado!. Haz un repaso y no olvides enviarlo a tu profe.