EL aparato digestivo y La digestión

Coloca las siguientes partes del aparato digestivo donde corresponda en el dibujo.

Esófago | Hígado y páncreas | Faringe | Intestino grueso

Intestino delgado | Boca | Estómago

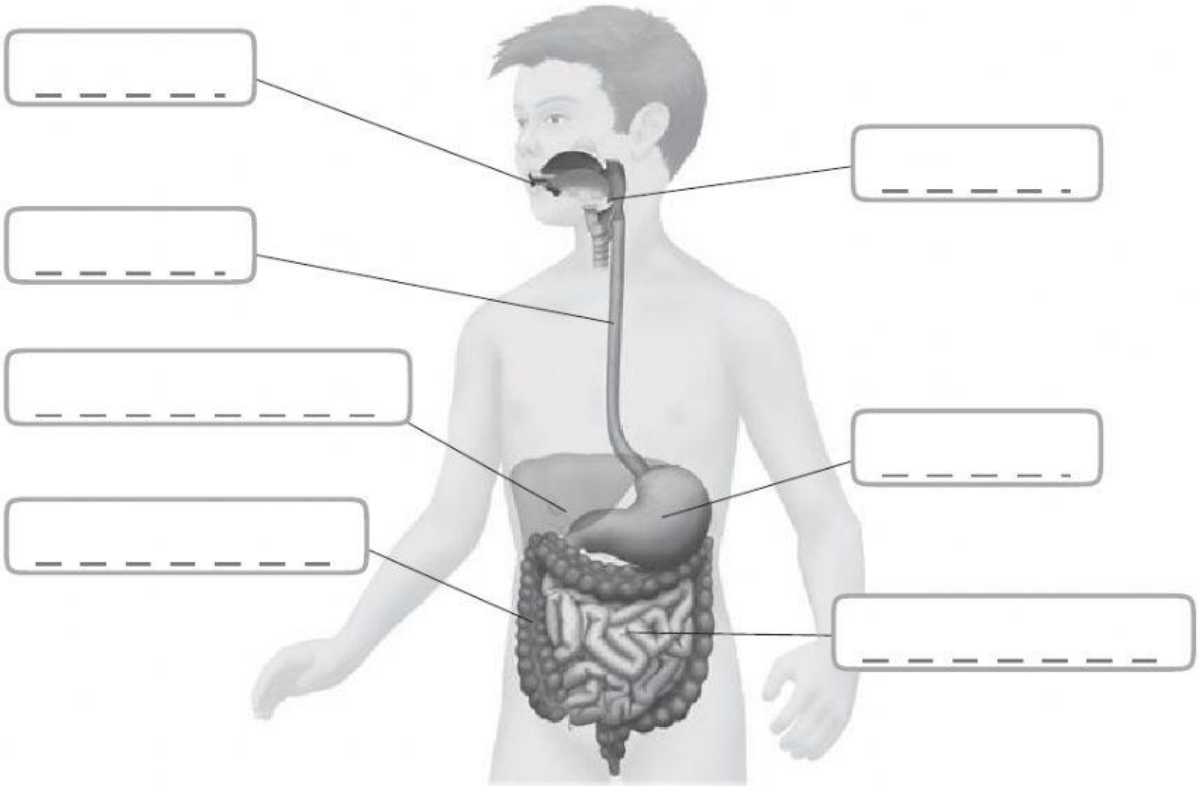

SANTA MARÍA DEL PILAR Zaragoza
COLEGIOS MARIANISTAS
LIVEWORKSHEETS

Relaciona cada parte del aparato digestivo con su definición correspondiente.

Órgano que fabrica los jugos gástricos. ●

Tubo desde el cual los nutrientes pasan a la sangre. ●

Cavidad donde se trituran los alimentos. ●

Tubo en el que se absorbe el agua ●

● Boca

● Estómago

● Intestino delgado

● Intestino grueso

¿Qué aparatos intervienen en la función de nutrición?

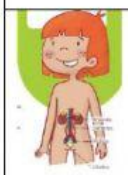	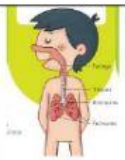

SANTA MARÍA DEL PILAR Zaragoza
COLEGIOS MARIANISTAS
LIVEWORKSHEETS