9 Prueba de control

MODELO A

Nombre _____ Fecha _____

1 Escribe con cifras y con letras la fracción sombreada en cada figura.

▶

▶

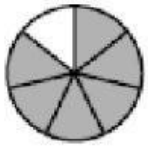

▶

▶

2 Representa cada fracción y escribe cómo se lee.

$\frac{2}{3}$



$\frac{5}{8}$

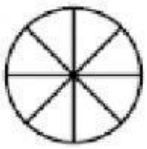

$\frac{5}{7}$

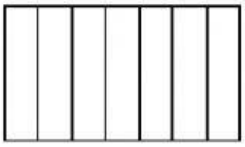

$\frac{7}{9}$



_____ _____ _____ _____

4 Completa la tabla.

Fracción	Forma decimal	Lectura
	0,6	
		Ochenta y dos centésimas
$\frac{8}{10}$		
		Siete centésimas

5 Escribe un número decimal que cumpla cada descripción.

- Su parte entera es 5 y su parte decimal 37_____
- Su parte decimal es 95_____
- Su parte decimal es 15 y su parte entera 124_____
- Su parte entera es 25 y su parte decimal 0 _____

6 Completa la descomposición de cada número y escribe cómo se lee.

- 4,35 = 4 U + _____ = 4 + _____

  Cuatro _____

- 8,06 = _____ = _____

  _____

- 37,29 = _____ = _____

  _____

7 Coloca y suma.

8,47 + 6,95	3,6 + 21,79

8 Coloca y resta.

2,78 − 0,29	4,3 − 1,76

9 Para merendar, Laura y Pedro compraron dos pizzas partidas en ocho partes iguales. Laura comió cinco partes de la suya y Pedro comió dos de la suya. ¿Qué fracción de pizza le quedó a cada uno?

_____

10 Mónica compró un pañuelo por 8 euros y 35 céntimos. El precio estaba rebajado 1 € y 45 céntimos respecto al precio anterior. ¿Cuánto costaba antes el pañuelo?

_____

10 María sacó en el primer examen de Lengua 8,35 puntos y en el segundo sacó 1,25 puntos más que en el primero. ¿Cuántos puntos sacó en total?

_____